LEMBAR KEGIATAN PESERTA DIDIDIK (LKPD)

Materi : Bagian-bagian prisma, tabung, limas, kerucut, dan bola
KD : 3.6.Membandingkan prisma, tabung, limas, kerucut, dan bola.
IPK : 3.6.1 Menyebutkan bagian-bagian prisma.

Perhatikan Video Berikut Ini!

Bagaimana anak-anak, setelah kalian mempelajari video diatas, apakah kalian sudah mengerti tentang apa itu yang disebut prisma dan juga tentang bagian-bagain prisma?

Untuk mengetahui seberapa jauh pemahaman kalian, coba kalian jawab pertannya di bawah ini!

1. Nama Bangun Ruang di bawah Adalah

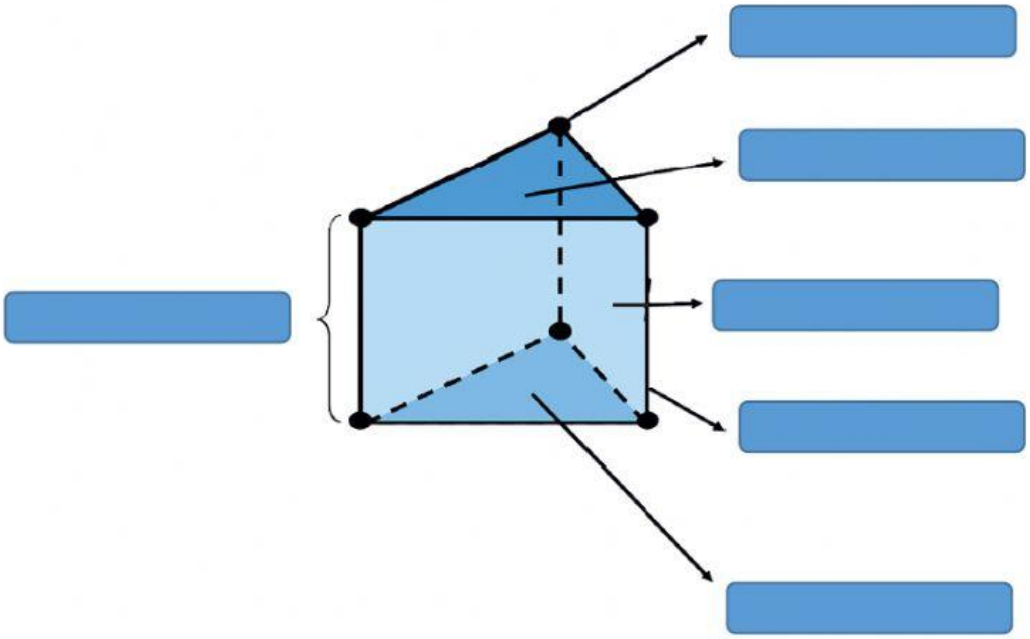

Kesimpulan

Dari hasil kegiatan diatas dapat dapat di simpulkan bahwa

bangun _____ mempunyai titik sudut

sejumlah _____ , sisi tegak sejumlah _____ ,

rusuk sejumlah _____

Bentuk bangun pada setiap sisi tegaknya adalah _____

Bentuk bangun pada sisi alas adalah _____

Bentuk bangun pada sisi atas _____

Jumlah seluruh sisi _____

Pilihan Jawaban

Prisma Segitiga | Persegi Panjang

3 | 6 | 5 | 9

Segitiga | Segitiga

2. Nama Bangun di bawah adalah _____

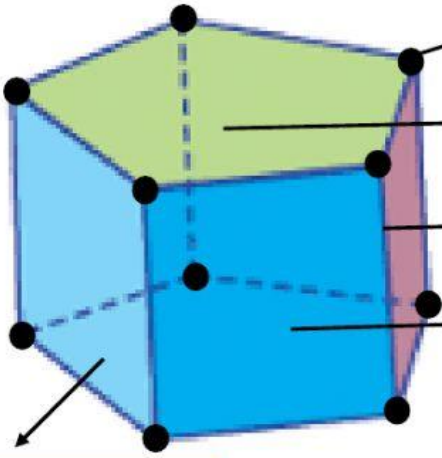

Kesimpulan

Dari hasil kegiatan diatas dapat dapat di simpulkan bahwa

bangun _____ mempunyai titik sudut

sejumlah _____ , sisi tegak sejumlah _____ ,

rusuk sejumlah _____

Bentuk bangun pada setiap sisi tegaknya adalah _____

Bentuk bangun pada sisi alas adalah _____

Bentuk bangun pada sisi atas _____

Jumlah seluruh sisi _____

Pilihan Jawaban

Prisma Segilima | Persegi Panjang

10 | 15 | 5 | 7

Segilima | Segilima

3. Nama Bangun di bawah adalah

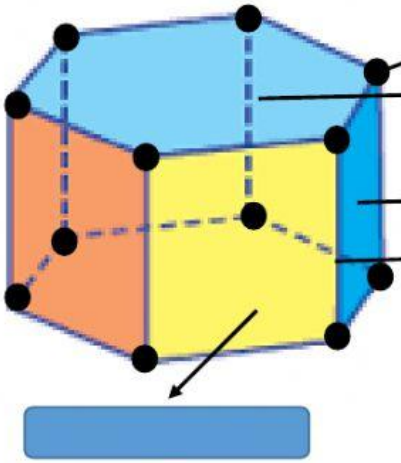

Kesimpulan

Dari hasil kegiatan diatas dapat dapat di simpulkan bahwa bangun mempunyai titik sudut sejumlah , sisi tegak sejumlah ,
rusuk sejumlah

Bentuk bangun pada setiap sisi tegaknya adalah

Bentuk bangun pada sisi alas adalah

Bentuk bangun pada sisi atas

Jumlah seluruh sisi

Pilihan Jawaban

Prisma Segienam

Persegi Panjang

12

18

6

8

Segienam

Segienam