المادة : الرياضيات (ورقة عمل تفاعلية)

عنوان الدرس : الأشكال الرباعية

الصف : الأول متوسط ( )

اسم الطالب /

١/ صح أم خطأ :

مجموع قياسات زوايا الشكل الرباعي يساوي ٣٦٠° ( )

٢ / صل من العمود الأول بما يناسب من العمود الثاني:

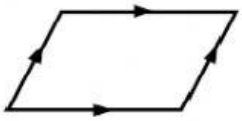

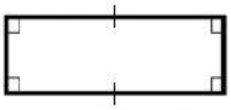

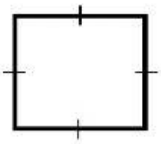

مربع

متوازي الأضلاع

مستطيل

٣ / اختر الإجابة الصحيحة ؟

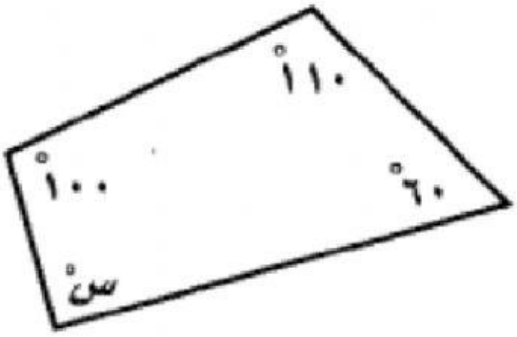

قيمة س في الشكل المجاور هو س =....

- ١٨٠ °
- ٣٦٠°
- ٩٠ °
- ٧٠ °

مع رجائي للجميع التوفيق و النجاح ، ، ، فلا تنسوني من دعواتكم ، ، ،