Η προπαίδεια του 8

1)Γράψε στο κόκκινο μπαλόνι τον <u>διπλάσιο αριθμό</u> από αυτόν που έχει το γαλάζιο ζευγάρι του:

2)Κάθε σακουλάκι έχει 8 κουλουράκια. Υπολόγισε με πολλαπλασιασμό πόσα είναι τα κουλουράκια κάθε φορά:

	.... x .... = ...
	.... x .... = ...
	.... x .... = ...
	.... x .... = ...
	.... x .... = ...

LIVEWORKSHEETS

3)Πόσες βούλες έχουν οι πασχαλίτσες σε κάθε σειρά;
Υπολογίζω με πρόσθεση και με πολλαπλασιασμό:



8	1 x 8 = ...
8 + 8 = ...	2 x 8 = ...
8 + 8 + 8 = ...	3 x 8 = ...
8 + 8 + 8 + 8 = ...	4 x 8 = ...
8 + 8 + 8 + 8 + 8 = ...	5 x 8 = ...
8 + 8 + 8 + 8 + 8 + 8 = ...	6 x 8 = ...
8 + 8 + 8 + 8 + 8 + 8 + 8 = ...	7 x 8 =
8 + 8 + 8 + 8 + 8 + 8 + 8 + 8 = ...	8 x 8 = ...
8 + 8 + 8 + 8 + 8 + 8 + 8 + 8 + 8 = ...	9 x 8 = ...
8 + 8 + 8 + 8 + 8 + 8 + 8 + 8 + 8 + 8 = ...	10 x 8 = ...

LIVEWORKSHEETS

4)Ένωσε τα σωστά με το μολυβάκι:

0 x 8	16
1 x 8	24
2 x 8	0
3 x 8	32
4 x 8	8
5 x 8	56
6 x 8	40
7 x 8	88
8 x 8	72
9 x 8	80
10 x 8	48
11x 8	64

LIVEWORKSHEETS

5)

Τα παπάκια μπήκαν σε ομάδες και πάνε βόλτα στη λίμνη.

Στην εργασία κάτω σκέψου:

- *ποιο είναι κάθε φορά το σωστό και διάλεξέ το από το βελάκι*
- *υπολόγισε πόσα είναι όλα τα παπάκια κάθε φορά*

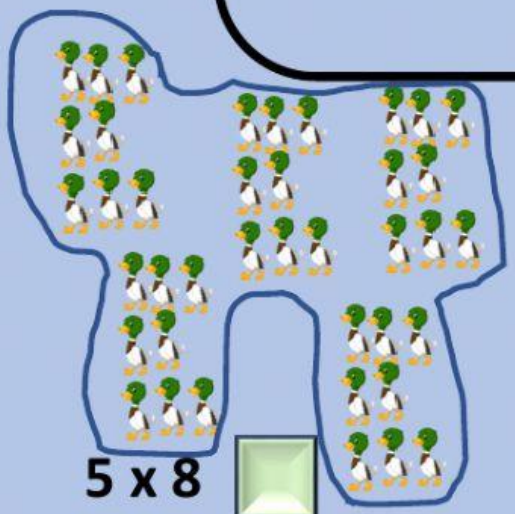

5 x 8 ☐

5 + 8 ☐

5 x 5 ☐

Τα παπάκια είναι …….. .

8 + 4 ☐

4 x 4 ☐

4 x 8 ☐

Τα παπάκια είναι …….. .

2 x 6 ☐

2 x 8 ☐

2 + 8 ☐

Τα παπάκια είναι …….. .

6)

Στο κτήμα φυτέψαμε μηλιές. Κάναμε 8 σειρές με 8 μηλιές σε κάθε σειρά. Πόσες μηλιές φυτέψαμε;

Υπολόγισε με τον πιο γρήγορο τρόπο.

… x … = … Όλα τα δέντρα είναι ….. .

LIVEWORKSHEETS

7)Συμπλήρωσε τους αριθμούς που λείπουν στον πίνακα του πολλαπλασιασμού:

x	0	1	2	3	4	5	6	7	8	9	10	11
8												



Παίζουμε κρυφτό! Τα φυλάει ο Σέρτζιο! Για να το κάνουμε πιο δύσκολο... μετράει 8-8...

Στην τάξη σου φέτος είστε 7 μαθητές. Μπορείς να υπολογίσεις τα πόδια σας, μαζί με της δασκάλας σας;

... x ... = ...

(Το γράφεις σωστά, με τις φορές, αλλά μπορείς να το σκεφτείς και ανάποδα! Έτσι θα το υπολογίσεις πιο εύκολα!)

Τα πόδια των 7 μαθητών μαζί με της δασκάλας είναι ..... .

LIVEWORKSHEETS