Campioni la Mate (5)



1 La o brutărie:

Erau	24	10	32
S-au copt	55	35	67
Sunt			

Erau	99	79	45
S-au vândut	88	62	30
Au rămas			

2 Calculează şi compară rezultatele, folosind unul dintre semnele: <, >, =.

a) 23 + 46 ☐ 85 – 52

b) 97 – 84 ☐ 66 – 41

c) 51 + 36 ☐ 15 + 72

d) 78 – 32 ☐ 16 + 30

e) 49 – 12 ☐ 25 + 14

f) 68 – 27 ☐ 89 – 54

3 Mama are 32 de ani, iar tatăl este cu 3 ani mai mare.
Ce vârstă are tatăl?

4 De ziua ei, Mirela a primit 11 frezii, 3 crini, iar trandafiri cât frezii şi crini la un loc. Câte flori a primit Mirela de ziua ei?

Rezolvare

1. Câţi trandafiri a primit?

2. Câte flori a primit în total?

R:

LIVEWORKSHEETS

Campioni la Mate (6)



1 Rezolvă exercițiile în lanț.

37 + 12 → ☐ - 28 → ☐

28 + 50 → ☐ - 72 → ☐ - 6 → ☐

45 + 23 → ☐ - 55 → ☐ + 76 → ☐

2 Cu cât este mai mare suma numerelor 67 și 12 decât numărul 55?

3 Din diferența numerelor 89 și 23 scade cel mai mic număr impar mai mare decât 20.

4 Privește tabelul și completează propozițiile:



	Coș	Cutie	Ladă
Mere	10	____	7
Pere	___	8	11
Gutui	2	3	14
Prune	5	12	11

- În coș sunt ____ mere.
- În coș sunt ____ mere și gutui.
- În cutie sunt ____ prune și gutui.
- În coș sunt ____ gutui și prune.
- În ladă sunt ____ mere și pere.
- În coș ____ sunt fructe.

- În ladă sunt ____ pere și gutui.
- În ladă sunt ____ gutui și prune.
- În coș și cutie sunt ____ gutui.
- În cutie și ladă sunt ____ pere.
- În ladă sunt ____ pere și gutui.
- În coș și cutie sunt ____ prune.

LIVEWORKSHEETS