EVALUACION DEL 1ER PARCIAL 2DO QUIMESTRE

CIENCIAS NATURALES

1-. ¿Ordena secuencialmente el ciclo de vida de una planta flor y escribe el numero?

La semilla germina		Cae la semilla al suelo	
El fruto cae al suelo		Crece la planta con flor	
Ocurre la polinización		Se forma el fruto que contiene la semilla	

2-. Observa la imagen y escribe que tipo de planta es según su tamaño

3-. Nombra 3 plantas alimenticias, industriales, ornamentales y medicinales

Alimenticias	Industriales	Ornamentales	Medicinales

¿Qué tipo de planta es, según su utilidad? Coloca la letra, según corresponda.

A (Comestible) B(Industrial) C (Medicinal) D (Decorativa)

papa



Caña de azúcar

rosa



manzanilla

algodón

clavel