δ) Μπορεί η Ηρώ ν' αγοράσει και τα δύο βιβλία με τα χρήματα που έχει; Αν όχι, πόσα χρειάζεται ακόμα;



Εργασίες

1) Ενώνω με μια γραμμή τα είδη που έχουν την ίδια αξία:



2)

Θυμάσαι ότι το 0,2 μπορώ να το γράψω 0,20;

Όχι. Μπορείς να μου το εξηγήσεις;

- Βρίσκουμε τρόπους για να εξηγήσουμε γιατί 0,2 = 0,20.

3) Γράφω τον αριθμό 0,45 στην κατάλληλη θέση (**α, β** ή **γ**) πάνω στην αριθμογραμμή:

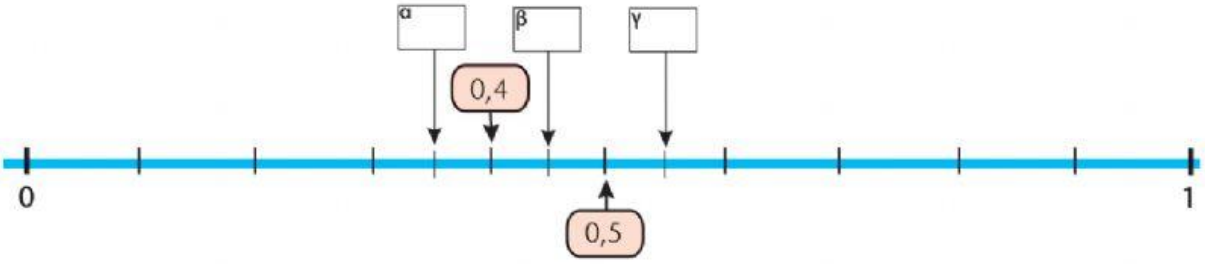

Συμπέρασμα

Μπορούμε ν' αφαιρέσουμε δεκαδικούς αριθμούς με διάφορους τρόπους. Επιλέγουμε κάθε φορά τον πιο κατάλληλο.