الشبكات

اسحب اسم الشبكة الى المكان المناسب

هرم ثلاثي　　مكعب　　متوازي مستطيلات　　هرم رباعي

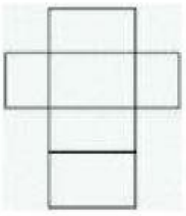
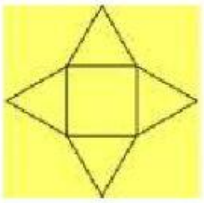
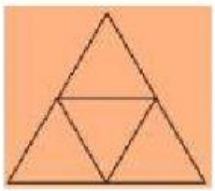


.....　　.....　　.....　　.....

أوفق بين الشبكة والمجسم الناتج

