IEP SAN BASILIO

ÁREAS y PERÍMETROS

Nombres y apellidos: ……

1. Halla el área y el perímetro de cada figura:



Área:
Perímetro:

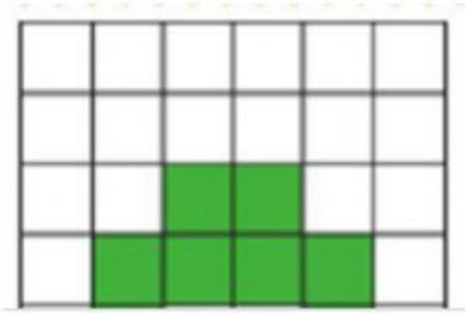

Área:
Perímetro:

2. Halla el área de cada figura:

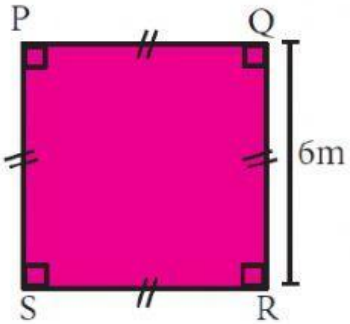

Área: m^2

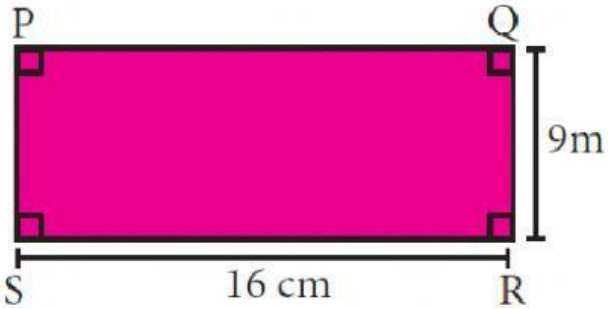

Área: m^2

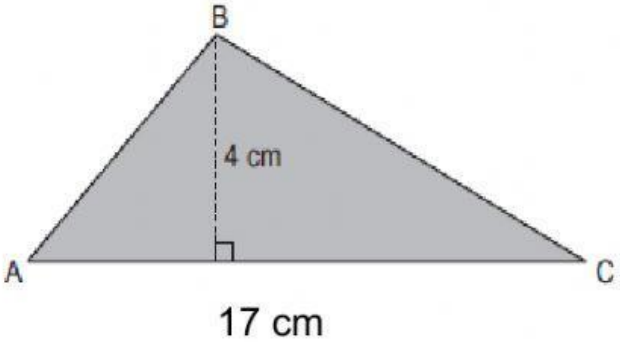

Área: cm^2

3. Halla el área coloreada:

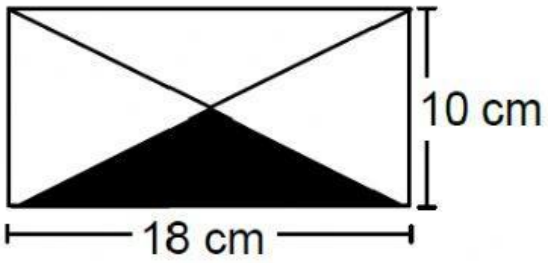

Área: cm^2

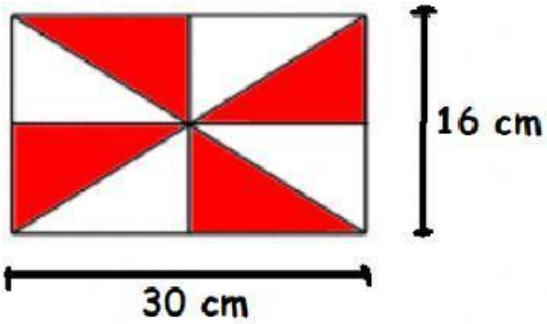

Área: cm^2

4. El perímetro de un cuadrado es 20 cm. ¿Cuánto mide su lado?
   Respuesta: El lado mide …….. cm

5. La base de un rectángulo mide 14 cm y su altura mide la mitad de la base. ¿Cuál es su perímetro?
   Respuesta:

6. Halla el perímetro de la figura:

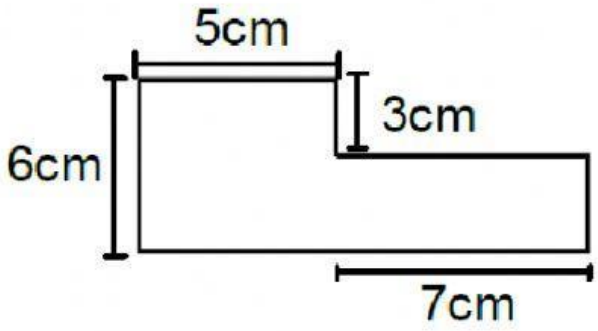

El perímetro es: ……. cm