Вежби

Геометриски тела

1.Со повлекување по редослед, подреди кое тело каде припаѓа:

ВАЛЧЕСТИ

РАБЕСТИ

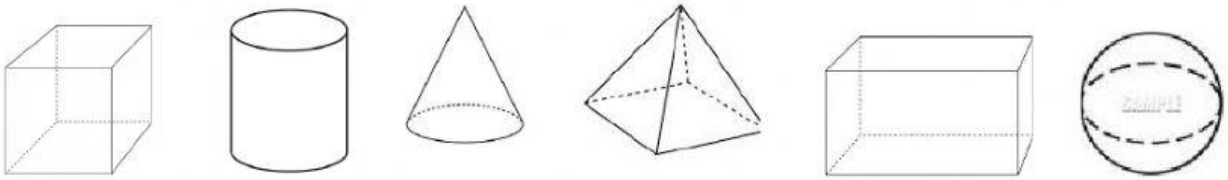

2. Дополни ја табелата!

тело	број на ѕидови	број на рабови	број на темиња
квадар 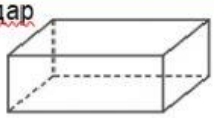			
пирамида			
топка			
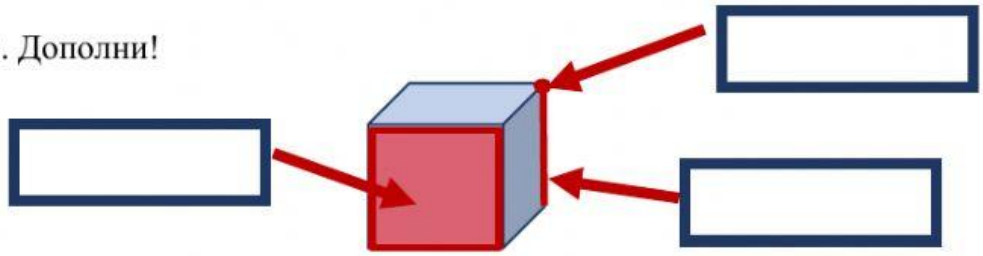
3. Дополни!