- En la fila para subir a la tirolina hay 14 niños y 23 niñas. ¿Cuántos winkis hay en total?

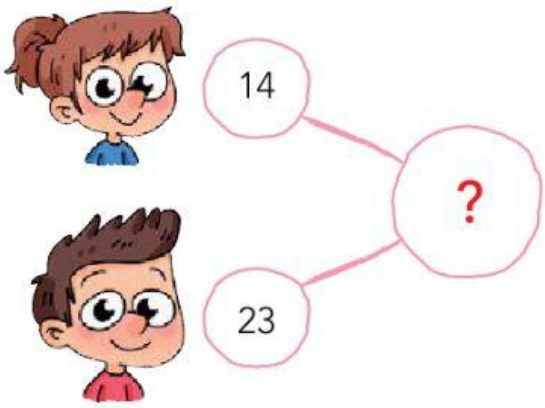

☐ ◌ ☐ = ☐

▶ Hay ☐ winkis.

- En el lago hay 25 winkis haciendo vela y 31, piragua. ¿Cuántos hay en total?

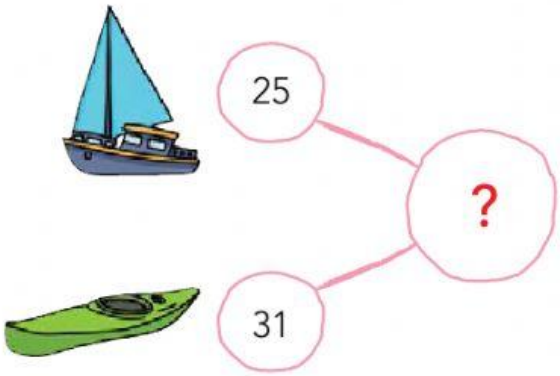

☐ ◌ ☐ = ☐

▶ Hay ☐ en total.

- Los winkis han hecho 58 objetos en el taller de cerámica, pero se han roto 14. ¿Cuántos quedan?

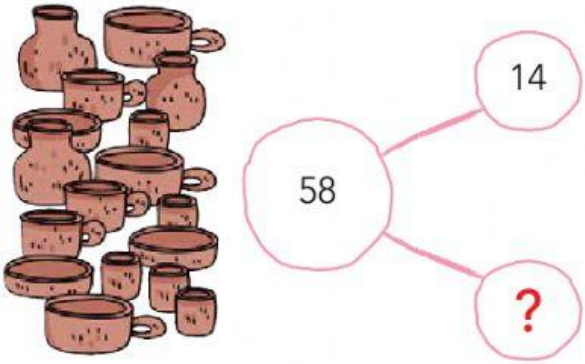

☐ ◌ ☐ = ☐

▶ Quedan ☐ objetos.

- En el taller de cocina han horneado 97 galletas y se han comido 45. ¿Cuántas quedan?

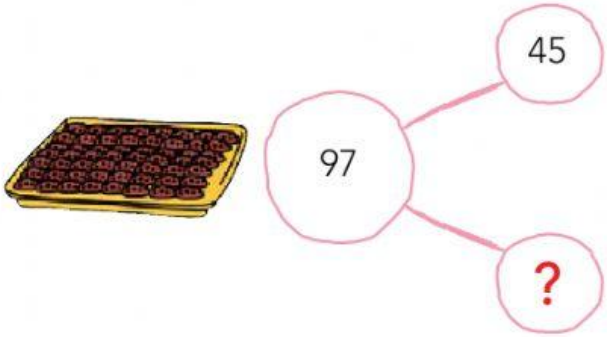

☐ ◌ ☐ = ☐

▶ Quedan ☐ galletas.