23. ΕΠΑΝΑΛΗΠΤΙΚΟ ΜΑΘΗΜΑ

1. Επιλέγω τον αριθμό που βρίσκεται ανάμεσα:

10 11 12	11 ☐ 13	17 ☐ 19
13 ☐ 15	14 ☐ 16	18 ☐ 20
16 ☐ 18	9 ☐ 11	12 ☐ 14

2. Υπολογίζω και συμπληρώνω τους αριθμούς:

5 + 4 = 9	7 + 2 = ...	8 + 2 = ...	5 + 3 = ...	4 + 3 = ...	9 + 1 = ...	3 + 2 = ...
4 + 5 = ...	2 + 7 = ...	2 + 8 = ...	3 + 5 = ...	3 + 4 = ...	1 + 9 = ...	2 + 3 = ...

3. Υπολογίζω προσεκτικά:



4. Περισσότερα ή λιγότερα; Βάζω τα σύμβολα > , < ή =.





5. Συμπληρώνω τα διπλάσια:

6. Συμπληρώνω πόσα είναι τα μισά:



7. Πόσα μπαλάκια έχει συνολικά το κάθε παιδί;

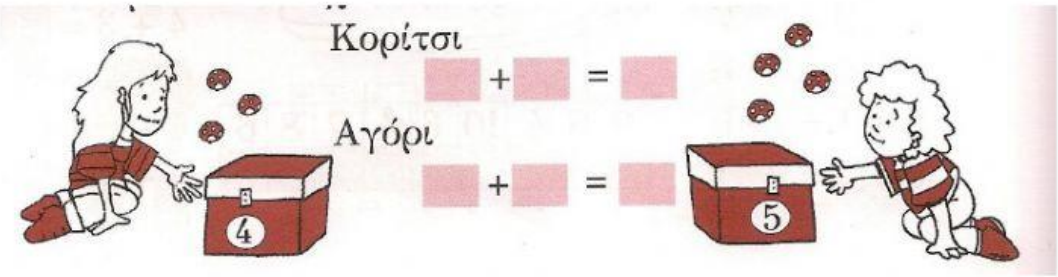

8. Κάθε παιδί έχει συνολικά 10 μπαλάκια. Πόσα έχει κρυμμένα μέσα στο κουτί του;



6 + ☐ = 10

4 + ☐ = 10