Zad.1

Podaj miary kątów

a)

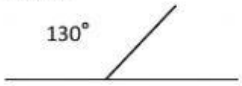

b)



c)

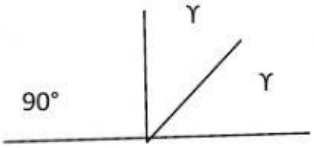

d)

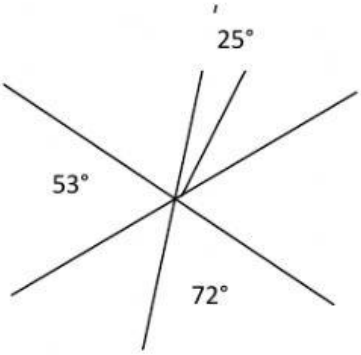

Zad.2 Oblicz miary kątów

a)

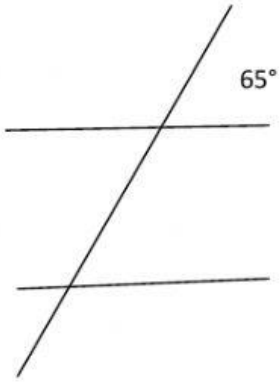

b)

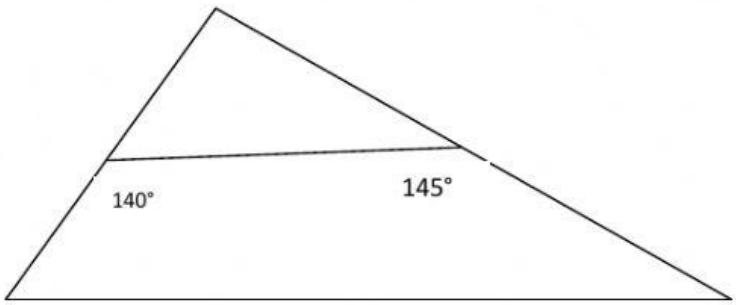

c)

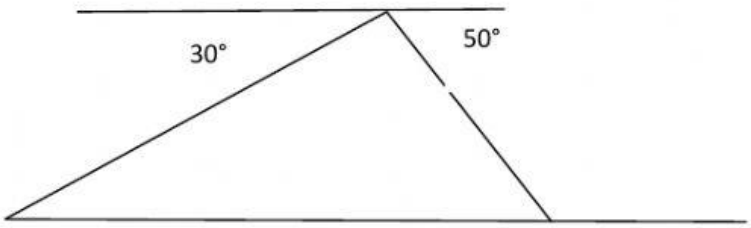

Zad.3 Podaj nazwy trójkątów (ze względu na boki i kąty)

a) Trójkąt, który ma boki równej długości-

b) Trójkąt, który ma boki różnej długości i wszystkie kąty ostre-

c) Trójkąt, który ma dwa boki równej długości i wszystkie kąty ostre-

d) Trójkąt, który ma 2 boki równej długości i kąt prosty-

e) Trójkąt, który ma boki różnej długości i kąt rozwarty-
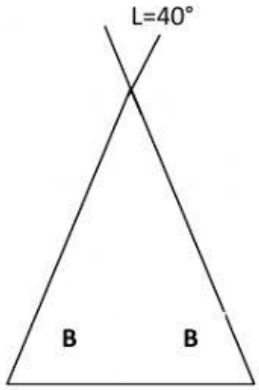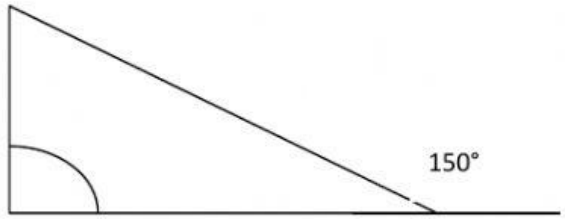
Zad.4 Podaj miary kątów w trójkątach