ΜΑΘΗΜΑΤΙΚΑ 3η ΕΝΟΤΗΤΑ

Κεφ.18: Φτιάχνω διψήφιους αριθμούς με πρόσθεση ίδιων ή διαφορετικών αριθμών

1. Βρίσκω τον κανόνα και συμπληρώνω τις αριθμητικές αλυσίδες.

5, 10, ____, ____, ____, ____, ____, ____, 45	Προσθέτω ____ κάθε φορά.
20, 30, ____, ____, ____, ____, ____, ____, 100	Προσθέτω ____ κάθε φορά.
22, 24, ____, ____, ____, ____, ____, ____, 38	Προσθέτω ____ κάθε φορά.
95, 90, ____, ____, ____, ____, ____, ____, 55	Αφαιρώ ____ κάθε φορά.
58, 56, ____, ____, ____, ____, ____, ____, 42	Αφαιρώ ____ κάθε φορά.
78, 75, ____, ____, ____, ____, ____, ____, 54	Αφαιρώ ____ κάθε φορά.

2. Υπολογίζω όπως το παράδειγμα.

Πόσες φορές; Ποιον αριθμό;

2 + 2 + 2 = 6	ή	**3** X **2** = 6
3 + 3 + 3 + 3 + 3 = ____	ή	____ X ____ = ____
9 + 9 = ____	ή	____ X ____ = ____
6 + 6 + 6 = ____	ή	____ X ____ = ____
1 + 1 + 1 + 1 + 1 + 1 + 1 = ____	ή	____ X ____ = ____
5 + 5 + 5 + 5 = ____	ή	____ X ____ = ____

3. Λύνω τα παρακάτω προβλήματα, όπως το παράδειγμα. Χρησιμοποιώ τα σύμβολα + και Χ.

Α. Πόσα πόδια έχουν οι τρεις γατούλες;



Πόσες γάτες;

Πόσα πόδια η κάθεμια;

□ + □ + □ ή □ x □ = □

Β. Πόσα μήλα έχουν οι δύο μηλιές;



Πόσες μηλιές;

Πόσα μήλα η κάθε μηλιά;

□ + □ ή □ x □ = □

Γ. Πόσα φτερά έχουν τα τέσσερα πουλάκια;



Πόσα πουλιά;

Πόσα φτερά το καθένα;

□ + □ + □ + □ ή □ x □ = □

Το σύμβολό μου είναι το +

Το σύμβολό μου είναι το Χ