ESCUELA DE EDUCACIÓN BÁSICA
"EDUARDO KINGMAN"

NOMBRE:_____

LECCIÓN DE ESTUDIOS SOCIALES

1.COLOCA UNA X EN EL VOLCÁN MÁS ALTO DEL ECUADOR. (1 PTO.)

COTOPAXI ☐



TUNGURAHUA ☐

CHIMBORAZO ☐

2. **UBICA EN EL MAPA LAS REGIONES NATURALES DEL ECUADOR Y LOS LIMITES.(2 PTO.)**

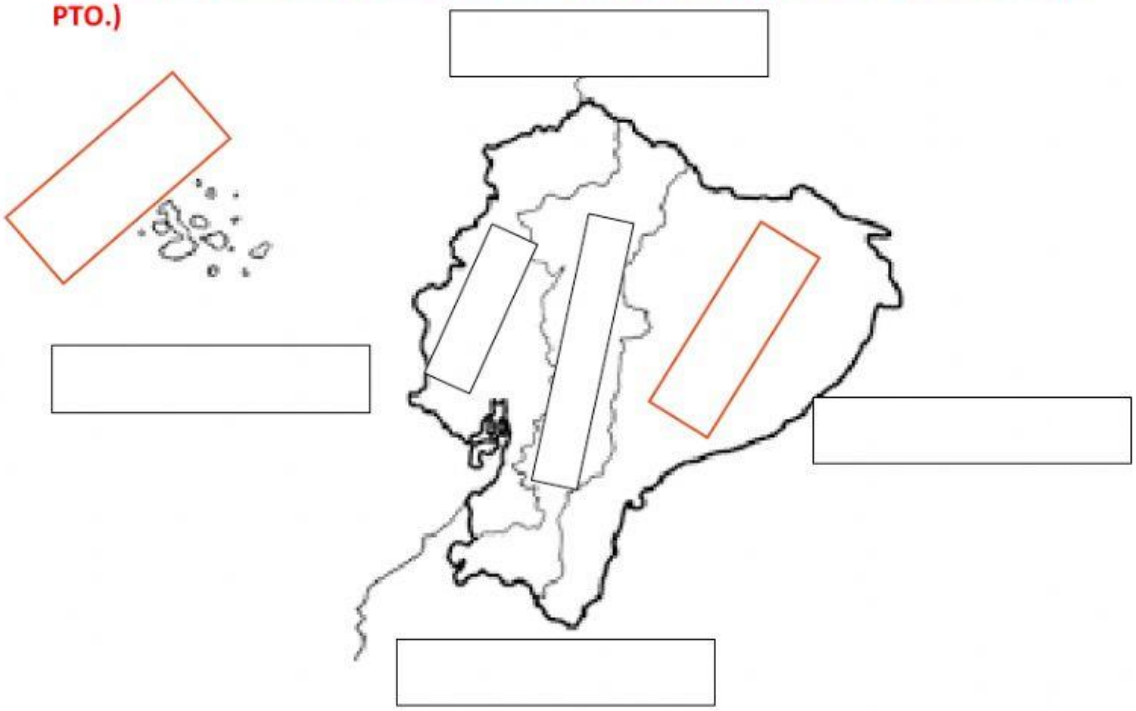

LITORAL | INSULAR | INTERANDINA | AMAZONÍA

COLOMBIA | O. PACÍFICO | PERÚ | PERÚ

3. ESCRIBE V O F SEGÚN CORRESPONDA. (2 ptos.)

a) ____Los relieves es un conjunto de formas que accidentan la superficie de la tierra.

b) ____ La Cordillera de los Andes atraviesa nuestro país de sur a norte.

c) ____Ecuador está situado en América del NORTE.

d) ____ Los mapas son representaciones gráficas de la tierra o de una parte de ella.

4. SELECCIONA EL TIPO DE MAPA SEGÚN CORRESPONDA. (2 ptos.)

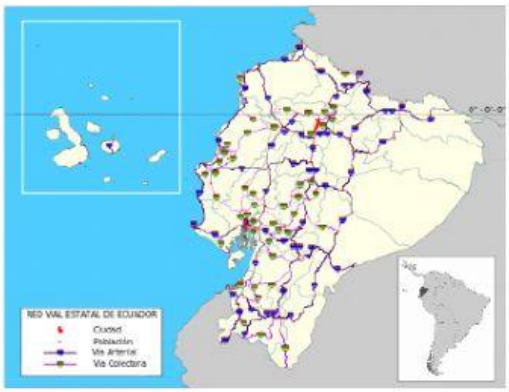

Mapa político	Mapa Físico	Mapa Vial	Mapa de la producción

Mapa político	Mapa Físico	Mapa Vial	Mapa de la producción

Mapa político	Mapa Físico	Mapa Vial	Mapa de la producción

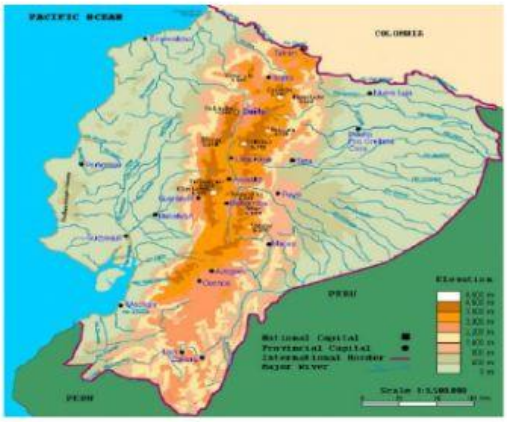

Mapa político	Mapa Físico	Mapa Vial	Mapa de la producción

5. COMPLETA CON FRASES DEL RECUADRO (1 pto.)

Formado sobre restos volcánicos	Minerales y erosionados
Sobre minerales antiguos	Aluviales

a) por la influencia del clima. _____

b) por la acumulación de cenizas volcánicas._____

c) Suelos destruidos por la erosión._____

d) por la acción de corrientes de agua. _____

6. COMPLETA LOS ELEMENTOS QUE CONFORMAN UNA CUENCA HIDROGRÁFICA. (1 ptos.)

7. UNIR CON LÍNEAS SEGÚN CORRESPONDA.(1 PTO)

PREFECTO PROVINCIAL CONSEJERO PROVINCIAL GOBERNADOR.	JEFE POLÍTICO ALCALDE CONCEJALES	TENIENTE POLÍTICO JUNTA PARROQUIAL

CANTONALES	PROVINCIALES	PARROQUIALES