LEMBAR KERJA PESERTA DIDIK (LKPD)

SKALA

Nama :

Kelas : No. Absen :

I. Pilihlah jawaban yang paling tepat!

1. Perhatikan peta di bawah ini!

Jarak antara pulau Bangka dan Pulau Belitung pada peta adalah 6 cm. Jarak sebenarnya adalah 90 km. Skala pada peta di atas adalah ….

A. 1 : 1.500 C. 1 : 150.000
B. 1 : 15.000 D. 1 : 1.500.000

2. Jarak rumah Dini dan Mira adalah 12 km. Dini akan membuat denah dengan menggunakan skala 1:400.000. Maka, jarak rumah mereka di denah adalah … cm.

A. 3 C. 30
B. 24 D. 240

3. Pada sebuah peta, jarak Pangkalpinang dan Koba adalah 4 cm. Jarak sebenarnya antara Pangkalpinang dan Koba adalah 64 km. Skala pada peta tesebut adalah . . .

A. 1 : 16.000.000 C. 1 : 160.000
B. 1 : 1.600.000 D. 1 : 16.000

4. Sebuah gambar lapangan berbentuk persegipanjang memiliki ukuran panjang 5 cm dan lebar 3 cm. Jika skala yang digunakan 1 : 2.000, maka ukuran lapangan sebenarnya adalah . . . .

A. p=400 m dan l=240 m C. p=200 m dan l=120 m
B. p=300 m dan l=180 m D. p=100 m dan l=60 m

5. Kota A dan B memiliki jarak 800 km. Pada peta, jarak kedua kota tersebut adalah 16 cm. Tentukan skala yang digunakan pada peta tersebut!

A. 1 : 5.000.000 C. 1 : 50.000
B. 1 : 500.000 D. 1 : 5.000

B. Letakkanlah Jawaban Pada kolom yang sesuai!

			Jawaban
1	Jarak sebenarnya = 1,4 km Skala = 1 : 2.000	Pada gambar	1,8 cm
2	Jarak sebenarnya = 4,5 km Skala = 1 : 500.000	Pada gambar	0,9 cm
3	Jarak sebenarnya = 2,1 km Skala = 1 : 7.000	Pada gambar	30 cm
4	Jarak sebenarnya = 4,6 km Skala = 1 : 200.000	Pada gambar	70 cm
5	Jarak sebenarnya = 36 km Skala = 1 : 2.000.000	Pada gambar	2,3 cm

C. Tariklah garis pada kotak yang memuat jawaban yang tepat!



232,5 km

231 km



175,5 km



850 km

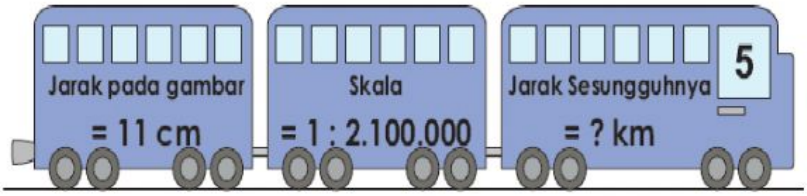

184 km