Στο διπλανό σχήμα:

1.

		Α	Β	Γ
1	Το εμβαδόν του ΑΒΗΘ είναι:	3	6	9
2	Το εμβαδόν του ΑΓΖΘ είναι:	6	12	18
3	Το εμβαδόν του ΑΓΕΗ είναι:	12	18	21
4	Το εμβαδόν του ΑΗΓ είναι:	9	12	4,5
5	Το εμβαδόν του ΒΖΗ είναι:	9	12	4,5
6	Το εμβαδόν του ΑΔΖΗ είναι:	12	18	21
7	Το εμβαδόν του ΑΔΕΗ είναι:	22,5	18	27
8	Το εμβαδόν του ΑΒΕΘ είναι:	22,5	18	21

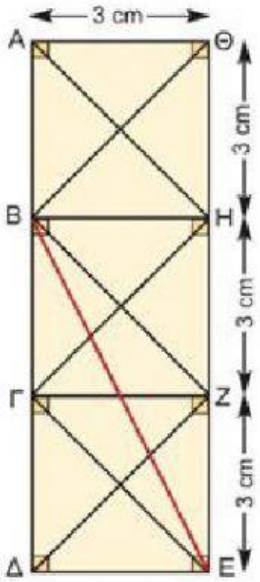

Να επιλέξετε τη σωστή απάντηση.

Στο διπλανό σχήμα:

2.

		Α	Β	Γ
1	Το εμβαδόν του παραλληλογράμμου ΑΒΓΔ είναι:	24	9	18
2	Το ύψος x που αντιστοιχεί στην πλευρά ΑΔ είναι:	5,5	9	4,5
3	Το εμβαδόν του παραλληλογράμμου ΕΖΗΘ είναι:	24	12	32
4	Η πλευρά x = ΕΘ είναι:	4	6	5

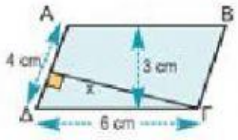

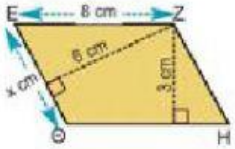

5	Ποιο από τα επόμενα δεν είναι ίσο με το εμβαδόν του τριγώνου ΑΒΓ;	$\frac{AB \cdot A\Gamma}{2}$	$\frac{A\Gamma \cdot BK}{2}$	$\frac{B\Gamma \cdot A\Lambda}{2}$	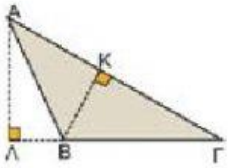
6	Το εμβαδόν του τριγώνου ΕΘΗ είναι:	32	16	20	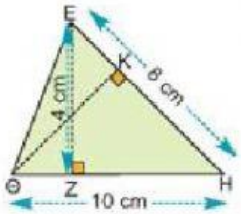
7	Το ύψος ΘΚ που αντιστοιχεί στην πλευρά ΕΗ είναι:	4	5	6	
8	Το διπλανό παραλληλόγραμμο ΑΒΓΔ έχει εμβαδόν 16cm² και το Ε είναι το μέσο της πλευράς ΓΔ. Το εμβαδόν του τριγώνου ΚΕΓ είναι:	4	6	8	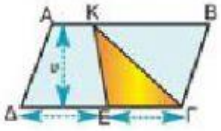
9	Το εμβαδόν του μπλε παραλληλογράμμου είναι:	5	4	8	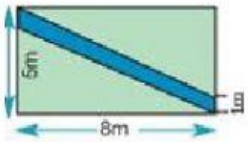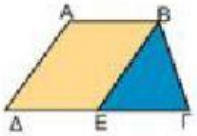
10	Το εμβαδόν κάθε πράσινου τριγώνου είναι:	16	20	17,5	
11	Αν το εμβαδόν του παραλληλογράμμου ΑΒΕΔ είναι 12cm² και το Ε είναι το μέσο της πλευράς ΓΔ, τότε το εμβαδόν του τραπεζίου ΑΒΓΔ είναι:	24	16	18