1) Completa el siguiente esquema con las partes del aparato digestivo.

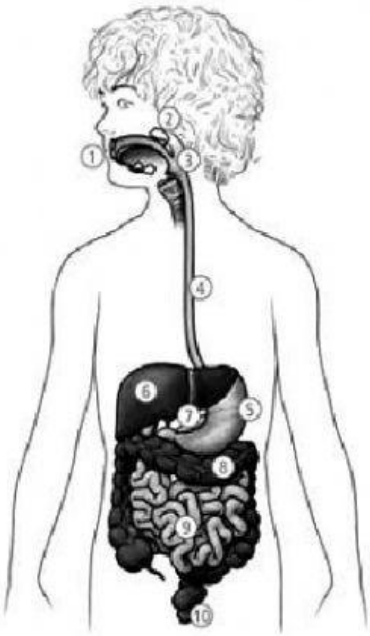

1.	6.
2.	7.
3.	8.
4.	9.
5.	10.

2) Completa los recuadros.

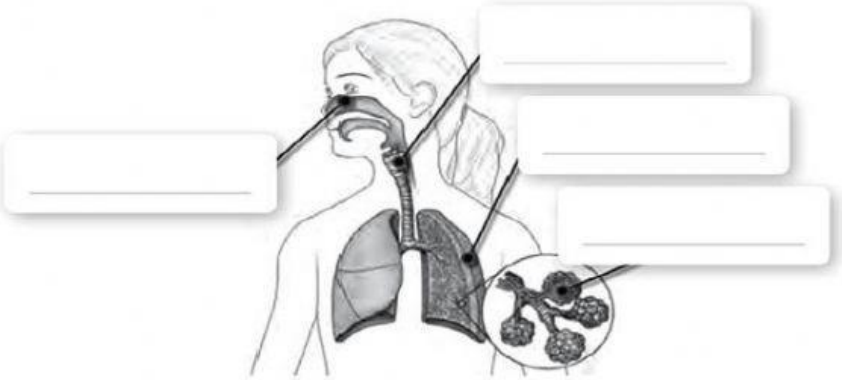

3) Completa este esquema sobre el aparato circulatorio.

LIVEWORKSHEETS

4) Rellena los huecos

Riñones
Vena cava inferior
Uréteres
Vejiga
Arteria aorta
Uretra
Venas renales
Arterias renales

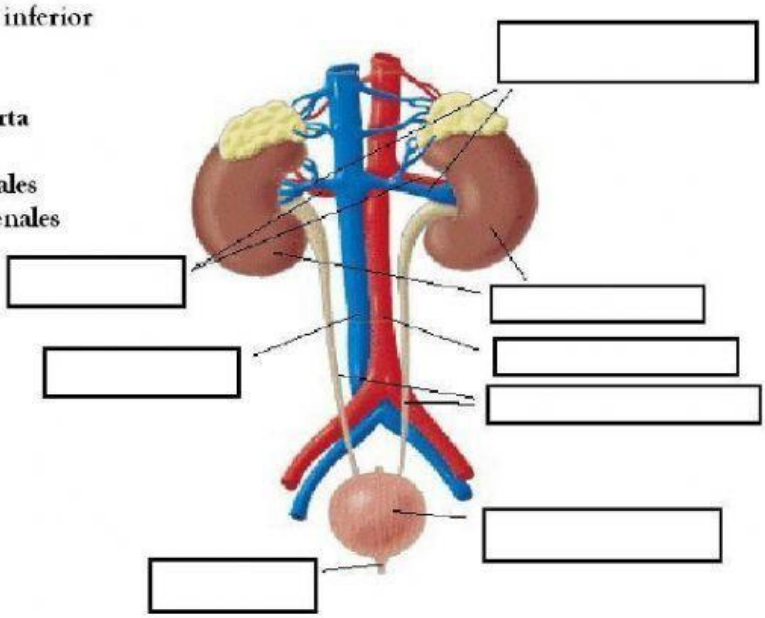

5) Completa este esquema sobre el sistema nervioso y escribe las partes que forman el encéfalo.

El encéfalo está formado por …….

6) Une con flechas.

Cerebro	• Recorren el cuerpo y conectan el sistema nervioso central por el cuerpo.
Cerebelo	• Cordón nervioso que conduce la información del encéfalo al resto del cuerpo.
Bulbo raquídeo	• Coordina los movimientos y el equilibrio.
Médula espinal	• Interpreta las sensaciones que recogen los sentidos, controla las emociones, las acciones voluntarias.
Nervios	• Controla los movimientos involuntarios como la respiración.

LIVEWORKSHEETS

7) Coloca en las ilustraciones las partes de los aparatos reproductores femenino y masculino del cuadro.

ovario vagina útero pene glande testículos
uretra conducto deferente vesícula seminal trompa de Falopio

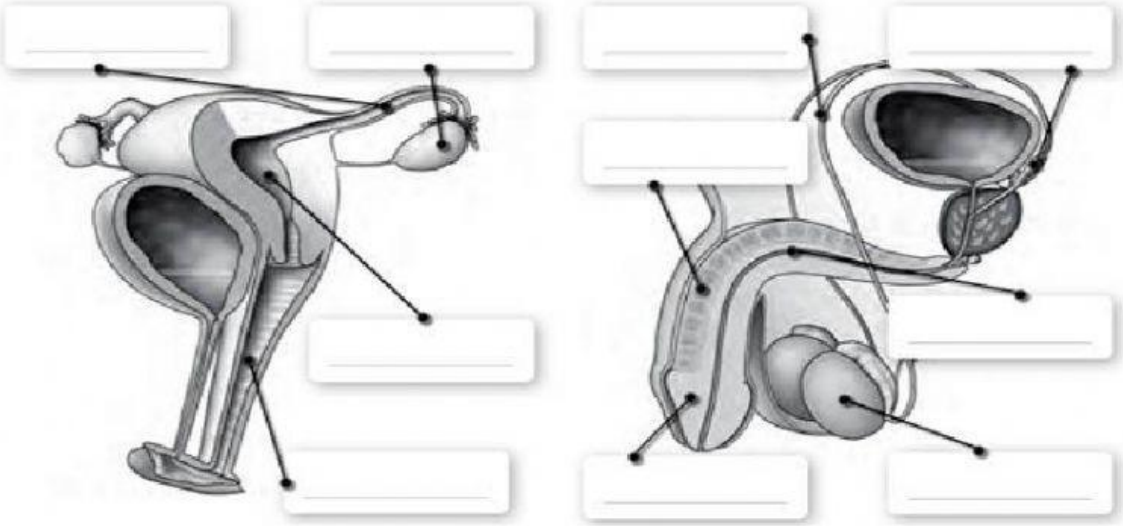

8) Une con flechas estas enfermedades y problemas de salud con las funciones con las que están relacionadas.

Miopía	
Trombosis	- Nutrición
Parkinson	
Vaginitis	
Caries	- Reproducción
Esterilidad	
Desgarros	
Neumonía	- Relación
Uretritis	

9) Une con flechas.

Salud	• Sustancias que se utilizan para curar enfermedades y problemas de salud, aliviarlos o prevenirlos.
Medicamentos	• Operaciones que los médicos llevan a cabo en el interior del paciente.
Cirugía	• Traslado de órganos, tejidos o células de un donante a un receptor.
Trasplante	• Estado de bienestar general, tanto del cuerpo como de la mente.

LIVEWORKSHEETS