PARTES DE LA FLOR Y REPRODUCCIÓN

gineceo	corola	ovario	estilo	androceo
	antera	estigma	cáliz	filamento

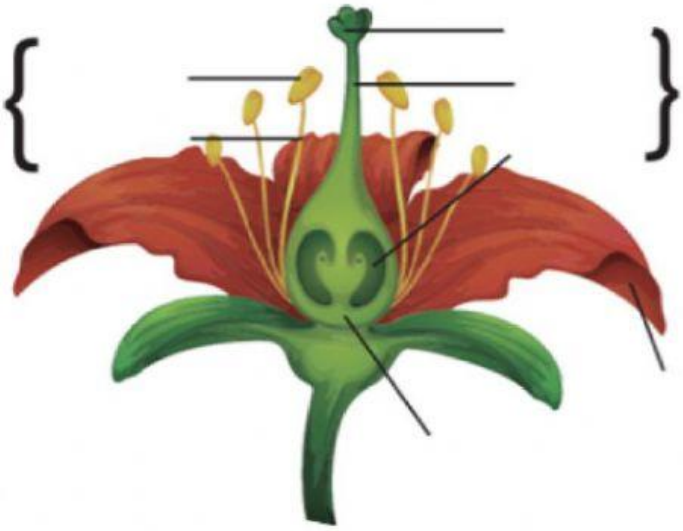

Responda los siguientes enunciados

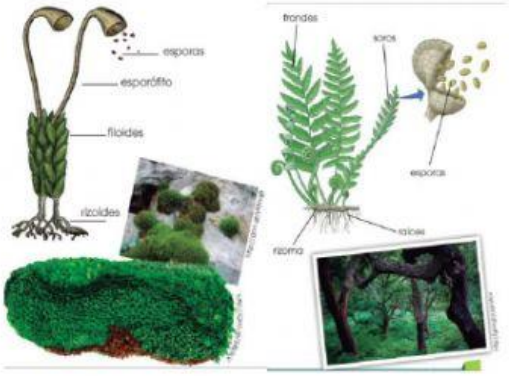

Los musgos y helechos se reproducen por

En los musgos, el contienen las esporas.

En los helechos, los contienen las esporas.

La parte femenina de la flor se denomina

La parte masculina de la flor se denomina
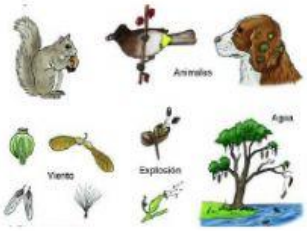
Identifique y escriba las fases de la reproducción sexual