MATEMATIK TAHUN 3
TAJUK : DATA
Cikgu Mariam

Nama: _____ Kelas: _____

Warnakan gambar mengikut panduan warna diberi dan lengkapkan jadual di bawah.

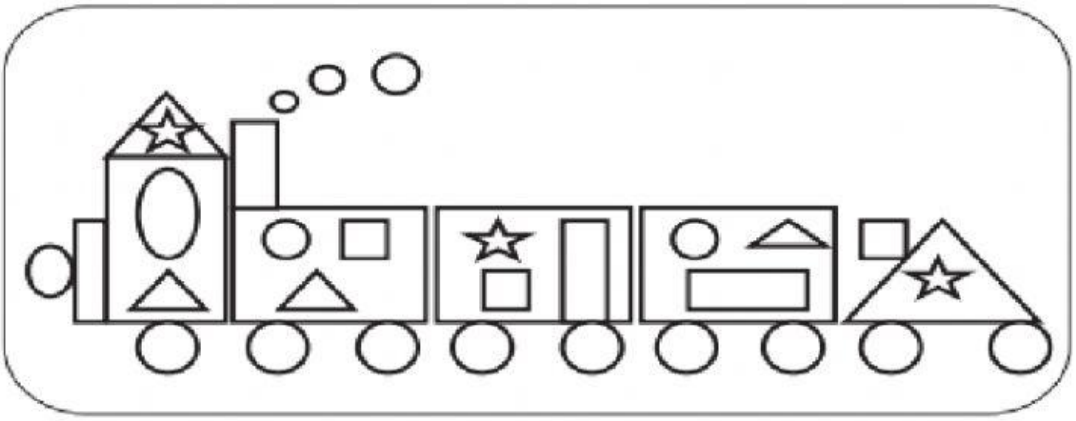

Warna	Gundal	Bilangan

Pilih jawapan untuk bahagian gundal, tarik ke kotak berkenaan.

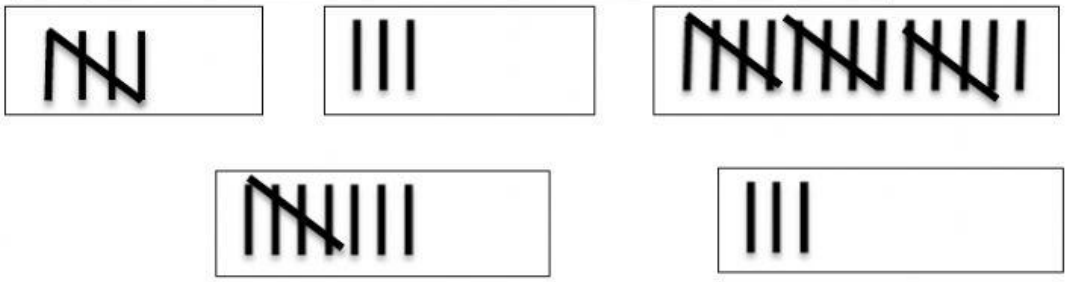

Lengkapkan jadual di bawah dan jawab soalan berikut.

1.

Bulan	Bilangan kek
Jun	
Julai	
Ogos	
September	

2. Nyatakan bulan yang mencatatkan jualan kek paling banyak?

_____

3. Nyatakan bulan yang mencatatkan jualan kek paling sedikit?

_____

b) Carta Palang

Bilangan kek yang dijual untuk setiap bulan.

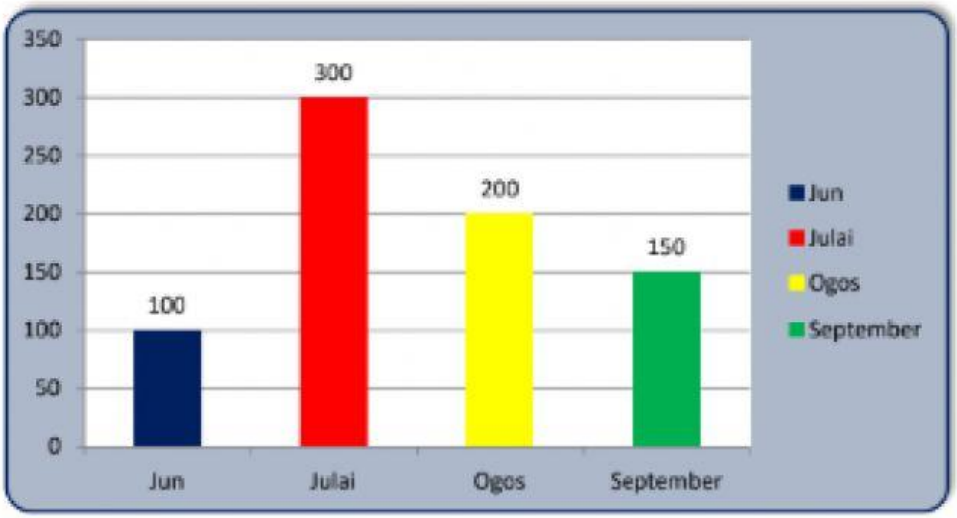

Bulan	Bilangan kek
Jun	
Julai	
Ogos	
September	

TERIMA KASIH