Esercizi sui numeri entro il 100

❖ Scrivi in cifre il numero rappresentato dai disegni



❖ Qual è la scritta esatta del numero rappresentato?

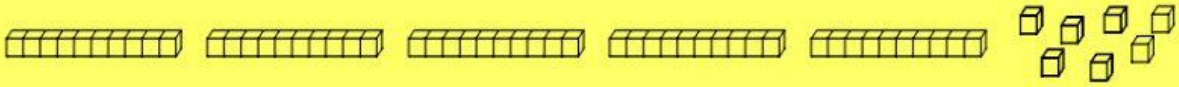

- cinquantasette
- dodici
- settantacinque



- diciotto
- ventotto
- trentotto

❖ Scegli il simbolo esatto:

38 45

56 22

18 18

❖ Ora metti in ordine i numeri dal minore al maggiore

38 45 56 22 18

_____ _____ _____ _____ _____