Упражнение

1. Попълни .

събираемо	421	154	322	681	21
събираемо	365	354	345	65	417
събираемо	158	400	142	164	452
сбор					

2. Какви са триъгълниците според ъглите?

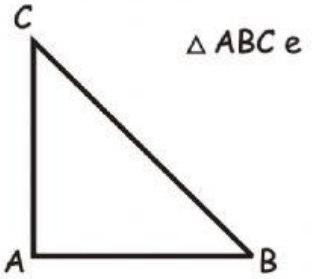

△ ABC е

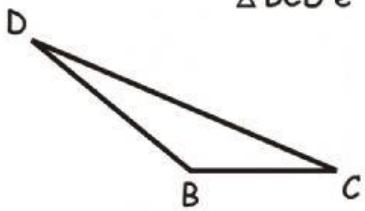

△ BCD е

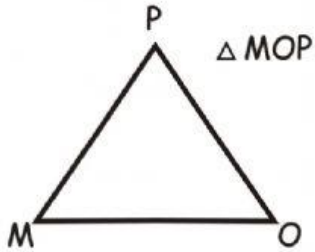

△ MOP е

3. С кой молив коя звезда е нарисувана? Свържи.

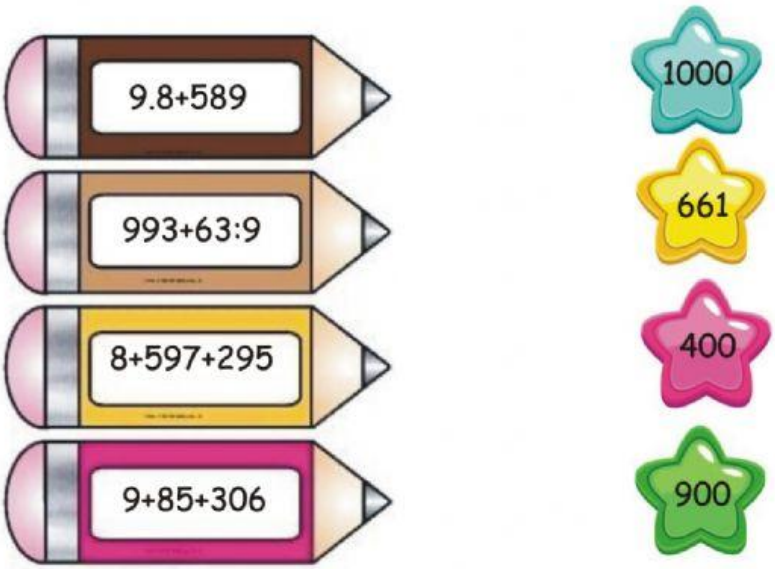

4. Колко от правоъгълниците са квадрати?

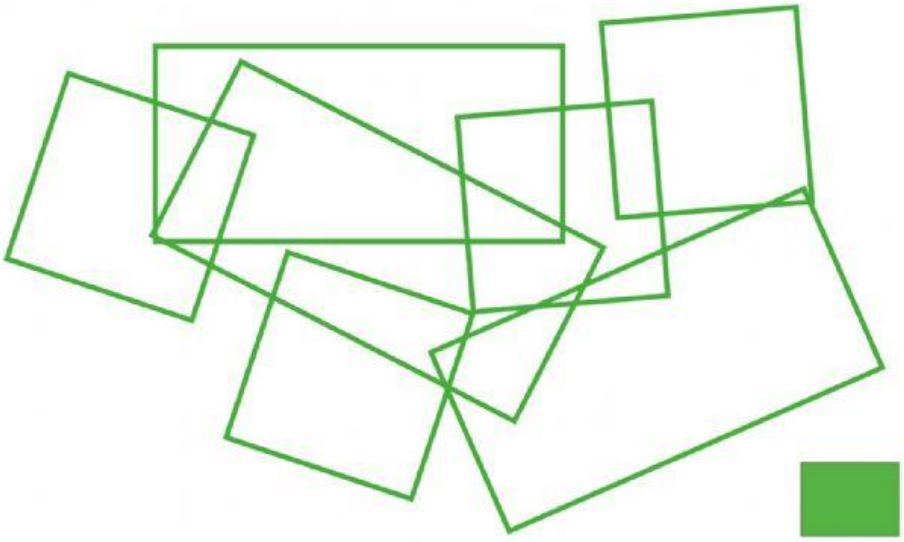

5. Обиколката на квадрат е 24 мм. Колко е обиколката на равностранен триъгълник, страната на който е 9 пъти по-дълга от страната на квадрата?

Изготвил: Петя Бълева