RELIEFUL ROMÂNIEI – CARACTERISTICI GENERALE

1. Pe prima treaptă (cea mai joasă) a reliefului se află:

A ☐ munții

C ☐ dealurile și podișurile

B ☐ câmpiile

2. Pe a doua treaptă a reliefului se află:

A ☐ munții

C ☐ dealurile și podișurile

B ☐ câmpiile

3. Pe cea mai înaltă treaptă a reliefului se află:

A ☐ munții

C ☐ dealurile și podișurile

B ☐ câmpiile

4.

Suprafețele întinse ocupate de o formă de relief se numesc:

A ☐ unități de măsură

B ☐ unități de relief

C ☐ unități teritoriale

5. 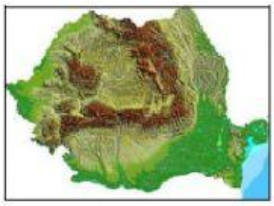

Deoarece pe teritoriul României există toate formele de relief, spunem că este un relief:

A ☐ armonios

B ☐ așezat în trepte

C ☐ variat

6. 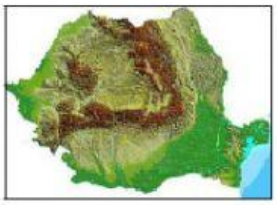

Deoarece înălțimile formelor de relief se micșorează dinspre mijlocul țării spre marginile acesteia, spunem că este un relief:

A ☐ armonios

B ☐ așezat în trepte

C ☐ variat

7. 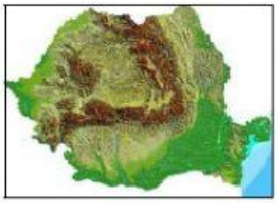

Deoarece munții, dealurile și podișurile, respectiv câmpiile au suprafețe aproximativ egale, spunem că este un relief:

A ☐ armonios

B ☐ așezat în trepte

C ☐ variat

8.

Munții Carpați sunt mărginiți spre exterior de:

A ☐ munți

B ☐ dealuri și podișuri

C ☐ câmpii

9. 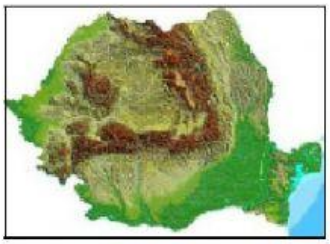

Formează în centrul țării un arc uriaș:

A ☐ Depresiunea Transilvaniei

B ☐ Munții Carpați

C ☐ Câmpia Română

10. Unitate de relief din sudul țării:

A ☐ Depresiunea Transilvaniei

B ☐ Munții Carpați

C ☐ Câmpia Română