NAMA:_____ KELAS:_____

SAINS TAHUN 2: KEMAHIRAN SAINTIFIK (ulangkaji)

Sila tonton video dibawah sebelum menjawab soalan:

A) Tandakan (/) pada jawapan yang betul dan (x) pada jawapan yang salah.

1

Rasa	
Pendengaran	

2

Rasa	
Penglihatan	

3

Pendengaran	
Bau	

4



Pendengaran	
Penglihatan	

5

Sentuhan	
Bau	

AYAM	SINGA	BELALANG	ZIRAFAH
BADAK	ITIK	RAMA-RAMA	ARNAB

B Kelaskan rajah dengan mengumpul dan mengasingkan ciri sepunya dan berbeza di dalam jadual di bawah. KBAT Menilai SP1.1.2 TP3



- Berkepak
  - Tidak berkaki
  - Berkaki
    - 5
    - 6
    - 7
    - 8
- Tidak berkepak
  - 1
  - 2
  - 3
  - 4

C Namakan peralatan yang sesuai digunakan untuk mengukur objek di bawah. SP1.1.3 TP 1

1

2

3



4



5

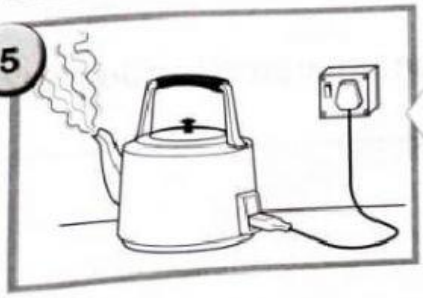

TERMOMETER | **JAM RANDIK** | **PEMBARIS**

PENIMBANG ELEKTRONIK | **BIKAR**