PENYELENGGARA PENDIDIKAN YAYASAN SALIB SUCI
SD YOS SUDARSO SUBANG
Jl. Ahmad Yani No. 31 Subang 0260-411434

Ulangan Matematika Tema 4 **Senin, 30 November 2020**

KD 3.5 (Pola Bilangan Loncat)

Pilihlah a, b atau c di bawah ini pada jawaban yang benar dengan memberi tanda centang (√) !

1. 

pola bilangan loncat yang tepat pada gambar di atas adalah . . . .

a. 4, 5, 8, 10
b. 4, 6, 8, 10
c. 4, 6, 9, 10

2.

pola gambar yang tepat untuk mengisi kotak yang kosong adalah . . . . .

a. 
b. 
c.

3. 6, 8, 10, ...

bilangan yang tepat untuk mengisi titik-titik di atas adalah . . . .

a. 12
b. 13
c. 14

4. 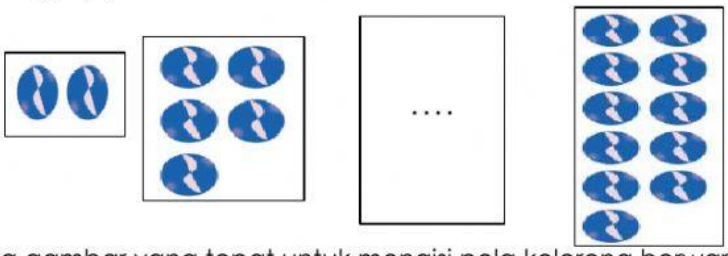

pola gambar yang tepat untuk mengisi pola kelereng berwarna biru adalah . . . .

a. 
b. 
c. 

5. 1, 4 , _____, 10

bilangan yang tepat untuk melengkapi di atas adalah . . . .

a. 6 b. 7 c. 8

KD 3.6 (Bangun Datar)

6. manakah gambar bangun segitiga adalah . . . .

a. b. 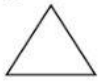 c. 

7. permukaan roda ini berbentuk ..

a. persegi panjang
b. Persegi
c. lingkaran

8. benda yang berbentuk persegi adalah . . .

a. b.  c.

9. 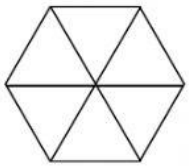 bangun segitiga di samping berjumlah . . . .

a. 4
b. 5
c. 6

10. bangun persegi mempunyai . . . sisi

a. 1 b. 3 c. 4

KD 3.8 (Pengukuran Panjang dan Berat dengan Satuan Tak Baku)

11.  lebar foto keluarga lani . . . jengkal tangan

a. 3 b. 4 c. 5

12. 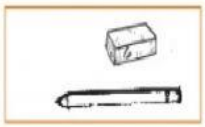 pensil lebih _____ dari penghapus.

a. lebih pendek
b. lebih panjang
c. lebih kecil

13. terong lebih _____ dari apel.

a. lebih berat
b. lebih ringan
c. sama berat

14.  urutkan keluarga siti dari yang **paling ringan** adalah . . .

a. Siti, Ibu, Ayah
b. Ibu, Ayah, Siti
c. Siti, Ayah, Ibu