sekolah tumbuh
jogja educational spirit

Evaluasi Akhir Semester
Semester I Tahun Pelajaran 2020 – 2021
Kelas :
Mata Pelajaran : **Matematika**
Waktu : **60 menit**

Nama : _____

Tanggal : _____

Nilai	Tanda tangan Edukator

Kerjakan soal berikut!

1. Perhatikan gambar berikut!

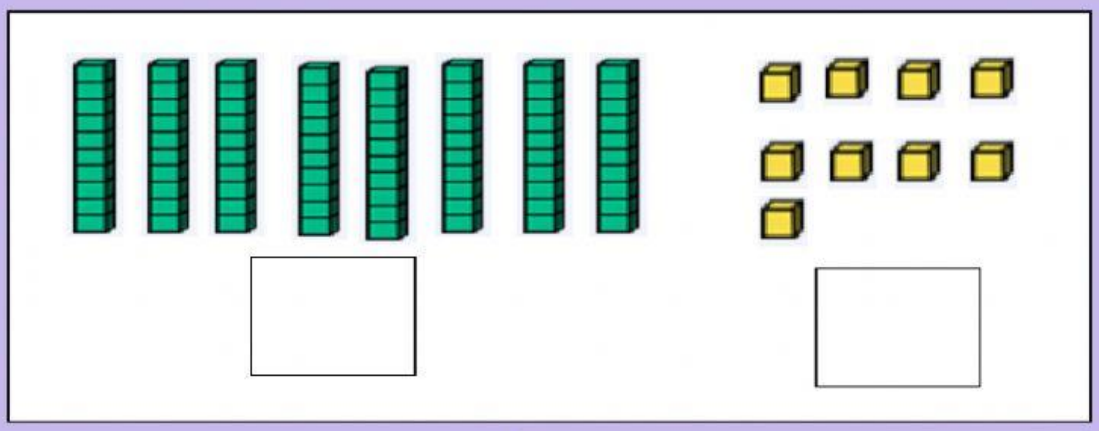

Banyaknya kubus ada

Bilangan tersebut dibaca

2. Ayo selesaikan soal-soal berikut!

48 = puluhan + satuan

91 = puluhan + satuan

3. Tentukan nilai tempat dari bilangan di bawah ini!

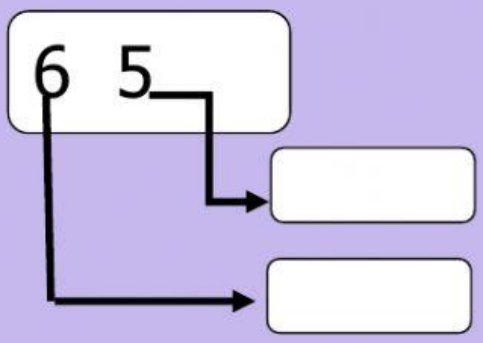

4. Lengkapi tabel dibawah ini!

Lambang Bilangan	Nilai tempat	
	Puluhan	Satuan
73	...	3
...	0	2

5. Nilai angka 2 pada bilangan 29 adalah

6. Nilai angka 4 pada bilangan 84 adalah

7. Angka sebuah bilangan terdiri tiga angka

   Angka 0 menempati tempat satuan

   Angka 7 menempati tempat puluhan

   Bilangan itu adalah

8. Konsep penjumlahan adalah jumlah barang menjadi lebih

9. Konsep pengurangan adalah jumlah barang menjadih lebih

10. Kerjakan operasi penjumlahan berikut dengan **cara panjang**!

64 + 21 = ...

= +

= +

+

= +

=

11. Kerjakan operasi penjumlahan berikut dengan **cara pendek**!

	6	1
	3	5

+

	8	2
	4	9

+

12. Kerjakan operasi pengurangan berikut dengan **cara panjang**!

89 - 53 = ...

[ ] = [ ] + [ ]

[ ] = [ ] + [ ]

-

= [ ] + [ ]

= [ ]

13. Kerjakan operasi pengurangan berikut dengan **cara pendek**!

	8	3
	2	1

-

	9	4
	4	7

-

14. Diwang membeli 46 kelereng.

Nicho membeli 97 kelereng.

Berapa jumlah kelereng Diwang dan Nicho?

-

Jawaban

15. Isis mempunyai 87 manik-manik.

Diberikan kepada Aya sebanyak 19 manik-manik.

Berapa manik-manik yang dimiliki Isis sekarang?

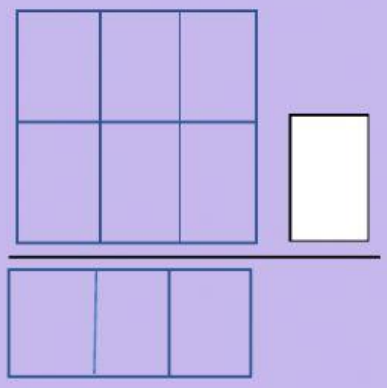

Jawaban