Examen 4º LM

1. Elije las tonalidades mayores y menores para las siguientes armaduras.



2. Elige las armaduras para las siguientes tonalidades.

RE MAYOR | RE# menor | RE menor | MIb MAYOR | Fa menor



3. Analiza los siguientes intervalos, indicando su número y especie.

4. Indica el nombre de cada grado de la siguiente escala de Mi menor.

5. Señala de qué escala se trata.