COLEGIO MANUEL RAMÍREZ B.
HERMANOS MARISTAS

ÁNGULOS

Competencia: Resuelve problemas de forma, movimiento y localización.

1.- Observa los ángulos que se forman y enumera del 1 al 3 según la medida de sus ángulos de la imagen, siendo el 1 de mayor medida y el 3 el de menor medida.

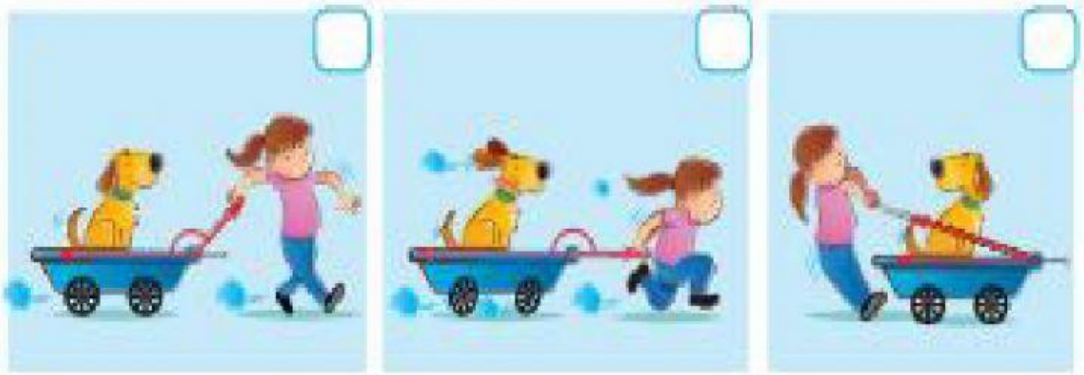

2.- Observa las imágenes y escribe qué clase de ángulo es cada uno (UTILIZA MAYÚSCULAS).



ÁNGULO

_____

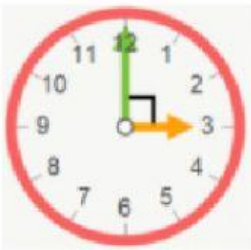

ÁNGULO

_____



ÁNGULO

_____



ÁNGULO

_____

3.- Observa el transportador y escribe la medida de cada ángulo.

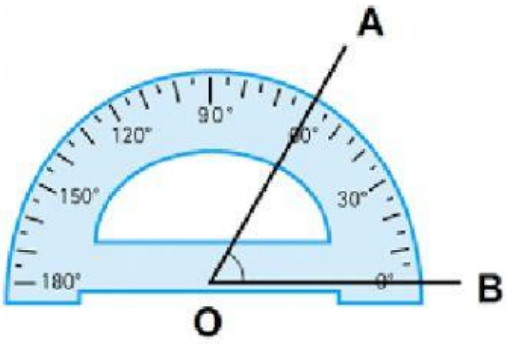

El ángulo AOB mide ____ °