MISTERIOS DE FORTNITE

SIN RESOLVER

DESCUBRE EL VALOR

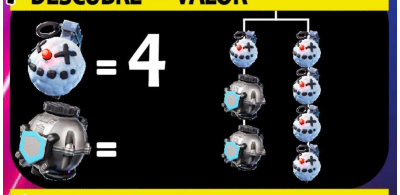

SUBIENDO DE NIVEL

Ayuda a tu personaje a subir de nivel en esta pirámide y saber en qué puesto quedará hasta la punta.
¡Una pista! El tabique de arriba es el resultado de sumar los dos números de abajo.



¿En qué nivel quedó en la punta de la pirámide?

¿Qué pasaría si uno de los números de abajo estuviera incorrecto?

ABRIENDO LA BÓVEDA

Escribe en las computadoras de código números del 1 al 9, de forma que, al sumar los números de cada línea coloreada, se obtenga la misma cantidad.

[PULSA EN LAS PANTALLAS PARA INGRESAR LOS DATOS]

¿CUANTOS PAVOS VALEN?

Escribe el valor que tiene cada objeto para calcular cuántos pavos vas a gastar para comprarlos.

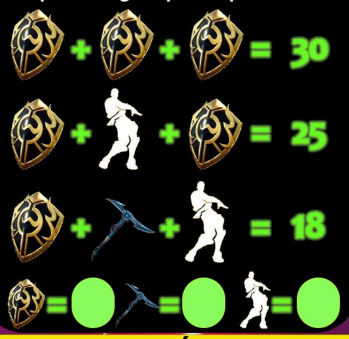

CONFLICTO DE CÓDIGO

Coloca estos números 1, 4, 5, 2, 6 para que todas las líneas sumen 11.

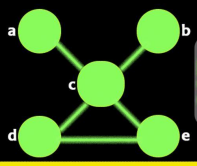

[INGRESA LOS DATOS CLICANDO SOBRE LOS CÍRCULOS]

PRUEBA DE TIRO

Practicando tiro, Deriva hizo 100 puntos lanzando 3 flechas. ¿Puedes decir en donde pegaron sus flechas?

[ANOTÁ LOS PUNTOS AQUÍ]

POR EL MAPA

A recorrer la Isla de Apolo siguiendo las indicaciones para llegar a la guarida de Iron Man!!!

3▶ 4▲ 6▶ 5▼ 2◀ 1▼ 5◀
4▼ 6▶ 1▼ 1▶

[CLICÁ SOBRE LOS CUADROS QUE INDICA EL CAMINO]