Nume: _____

Data: _____

Identificați ce fracție reprezintă fiecare punct

(ca în exemplu)

Deoarece axa este împărțită în 7 părți egale aceasta înseamnă că vom avea șeptimi!



A = $\frac{1}{7}$ B = $\frac{6}{7}$ C = $\frac{4}{7}$ D = $\frac{3}{7}$

Deoarece axa este împărțită în 5 părți egale aceasta înseamnă că vom avea cincimi!



A = _____ B = _____ C = _____ D = _____

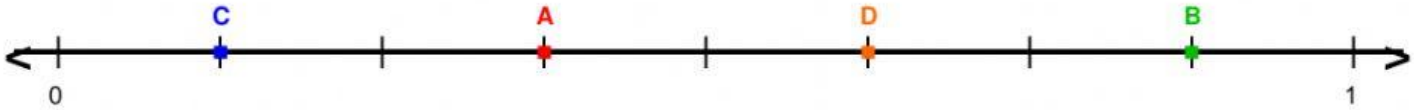

A = _____ B = _____ C = _____ D = _____

A = _____ B = _____ C = _____ D = _____

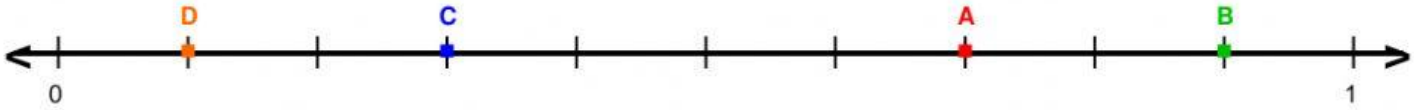

A = _____ B = _____ C = _____ D = _____