Тиждень 13

ДОСЛІДЖУЄМО ВЗАЄМОЗВ'ЯЗОК ДОДАВАННЯ І ВІДНІМАННЯ

(ім'я)

Доповни схему до кожного малюнка Поясни свій вибір Запиши відповідні рівності. Прокоментуй малюнки.

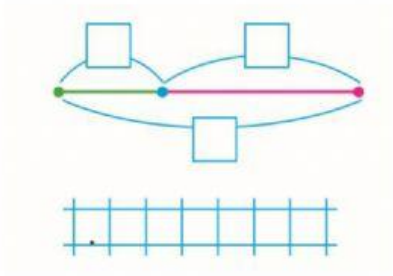



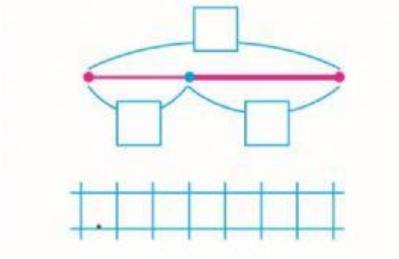



Прокоментуй записи. З кожної рівності на додавання склади рівності на віднімання.

7 + 2 = 9

9 - 7 = 2

7 + 2 = 9

9 - 2 = 7

7 + 2 = 9

9 - 2 = 7

9 - 7 = 2

3 + 2 = 5

7 + 1 = 8

6 + 3 = 9

4 + 2 = 6