UNIT 7

TARIKAN DAN TOLAKAN MAGNET

Padankan tindakan magnet-magnet yang berikut.

1

2

3

4

5

6

7

7.1.4	TP 4	Membuat pengitlakan tentang daya tarikan dan tolakan antara kutub-kutub magnet.	Menguasai / Tidak menguasai

UNIT 7

KEKUATAN MAGNET

Magnet yang manakah lebih kuat? Tandakan (✓) bagi jawapan yang betul.

1 (a)



(b)



2 (a)

(b)

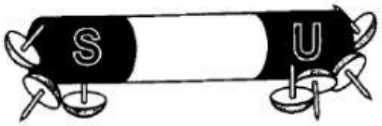

3 (a)

(b)

4 (a)

(b)

7.1.5	TP 5	Membuat kesimpulan kekuatan suatu magnet berdasarkan penyiasatan yang dibuat.	Menguasai / Tidak menguasai