2.2.1 Mengenal Pasti Komponen Mekanikal

Buku Teks: M.S. 43 - 47

1 Namakan komponen mekanikal berdasarkan rajah yang berikut dengan mengisi jawapan pada petak yang disediakan. SP2.2.1 TP1

(a)

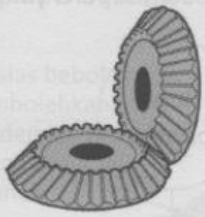

(b)

(c)

(3 markah)

2 Maklumat adalah berkaitan jenis-jenis gear.

A	B	C
Gear dalam	Gear rak dan pinan	Gear heliks

Nyatakan jenis gear di bawah dengan rajah yang betul serta tuliskan **A**, **B**, dan **C** pada petak yang disediakan. SP2.2.1 TP1

(a)



(b)

(c)



(3 markah)

3 Rajah menunjukkan suatu alatan yang menggunakan prinsip tuil. Namakan bahagian yang berlabel **A**, **B**, dan **C** pada alatan tersebut. SP2.2.1 TP1

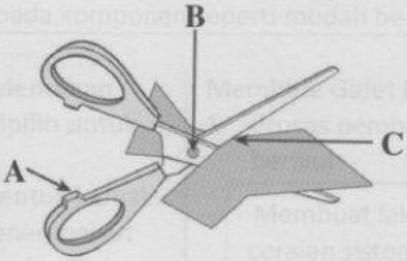

A: _____

B: _____

C: _____

(3 markah)