ЗАПИСУЄМО РОЗВ'ЯЗАННЯ ЗАДАЧІ ВИРАЗОМ

1 Обчисли.

27 → −23 → +8 → −6 → +40 → −34 → +2 → −7 → +8 → −10 → +9 → ☐

2 Прочитай вирази, знайди їх значення.

45 − (7 + 5) = 15 + (12 − 9) =

(7 + 7) − 9 = 11 − 4 − 5 =

18 − 5 + 6 = 53 + (6 + 6) =

3 Софійка і Женя склали про себе таку задачу.

Дівчатка Софійка і Женя прикрашають свої зачіски стрічками. У Софійки 7 стрічок, а в Жені — на 4 більше. Скільки стрічок у дівчаток разом?

Дівчатка виконали короткий запис і схеми до задачі, а от розв'язання задачі записали по-різному. Визнач, чий запис правильний.

Задача

Софійка — 7 стр.
Женя — ?, на 4 стр. б.

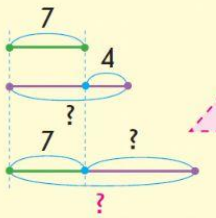

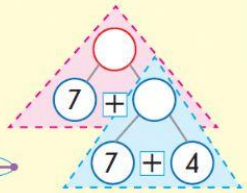

1) 7 + 4 = 11 (стр.) — у Жені
2) 7 + 11 = 18 (стр.) — разом

7 + (7 + 4) = 18 (стр.)

4 Прокоментуй розв'язання задачі та запиши його діями.

В ігровій квест-кімнаті було 9 дівчаток і 6 хлопчиків. Після того як кілька дітей пішли додому, в кімнаті залишилося 7 дітей. Скільки дітей пішли?

Було — ?, 9 д. і 6 д.
Пішли — ?
Залишилося — 7 д.

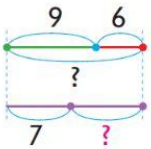

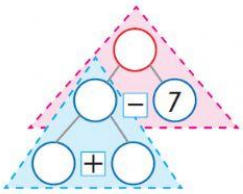

Подумай, як скласти вираз до цієї задачі.

Тарасик запропонував на схемі аналізу замість знака питання записати вираз, за допомогою якого відповімо на запитання задачі:

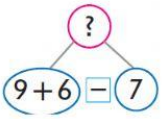

Катруся стверджує, що незручно вираз обводити — треба його записати в дужках: (9 + 6) − 7 = ☐.

Який результат одержали діти? З ким ти погоджуєшся?

Заповни таблиці.

+	2	4	6	8
8				

−	2	4	6	8
12				