Картка-завдання для електромонтерів з ремонту та обслуговування електроустаткування. (ІІ-розряд)

І-завдання

Схема: ВИДИ ЕЛЕКТРОПРОВОДКИ

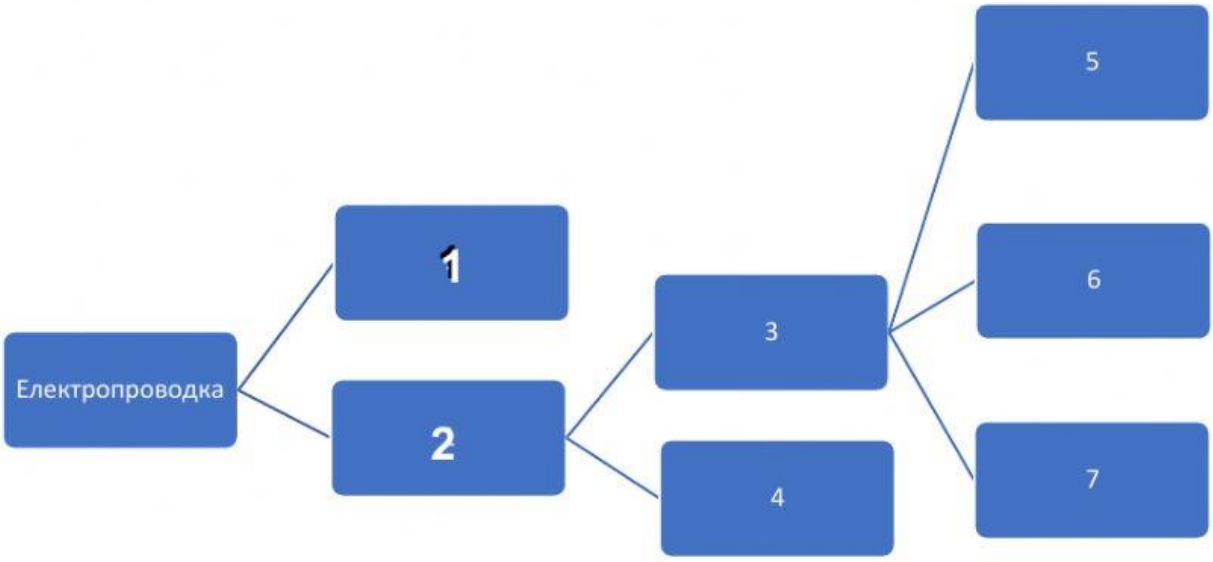

Назвати види електропроводки вписав їх в блоки.

1. Назвати проводку яка розташована на вулиці.

2. Назвати проводку яка розташована внутрі приміщень, будівлі.

3. Електропроводка яку прокладають зовні стін, стель.

4. Електропроводка яку прокладають у стінах, стелях, полах.

5. Електропроводка яка знаходиться зовні але призначена для довгої експлуатації.

6. Електропроводка яка знаходиться зовні але її положення можна змінювати.

7. Електропроводка яка знаходиться зовні але її можна переносити або перевозити.

ІІ-завдання

Схема: Способи прокладання схованої електропроводки.

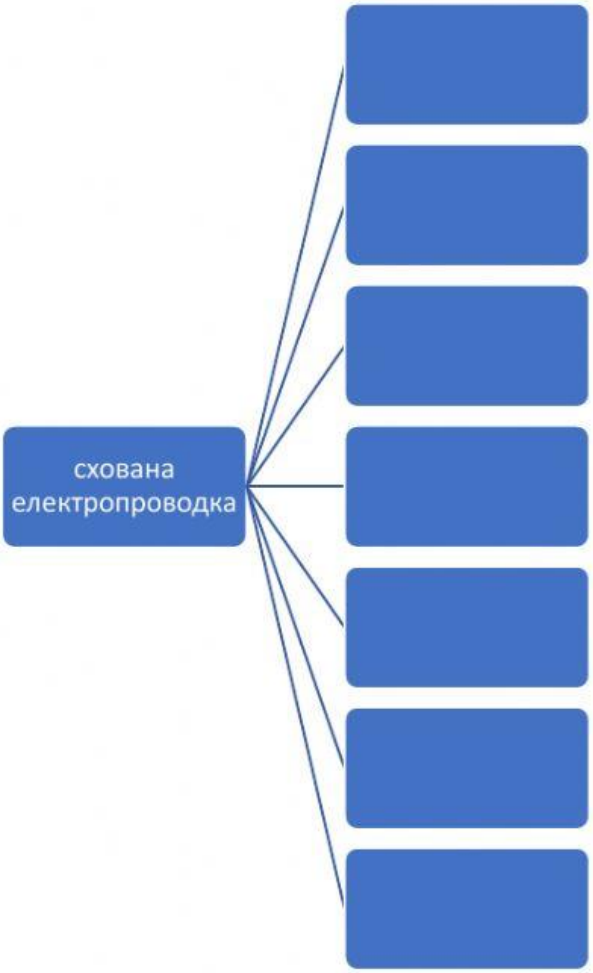

ІІІ-завдання

Що означають літери в маркуванні проводів

1- _____
2- _____
3- _____

IV-завдання

Перелічите інструмент яким виконують розмітку?

По стінам _____

По стелі _____

V-завдання

Перелічите інструмент який використовують при прокладанні штроб ?

Ручний _____

Електричний _____

VI-завдання

Які розчини використовують при кріплені проводів у борознах (штробах)

_____

VII-завдання

Напишіть до яких робіт відноситься операція, яка представлена на малюнку	
	
	

		

VIII-завдання

Назвіть елементи схеми електропроводки

IX-завдання

Назвіть операцію яку виконують на малюнку_____

Та впишіть інструмент у таблицю

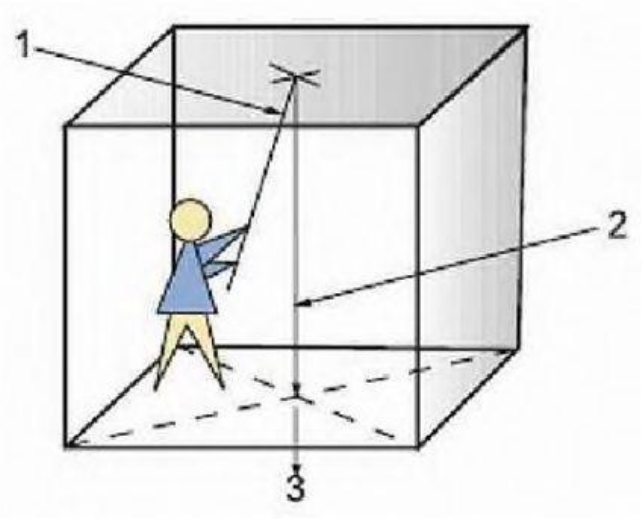

1	
2	
3	

X-завдання

Електропроводку, яка прокладена всередині конструктивних елементів будівель і споруд (в стінах, перегородках, підлогах, перекриттях тощо) називають _____