9. Calcula el perímetre i l'àrea d'aquests rectangles sabent que cada quadradet té un centímetre de costat.

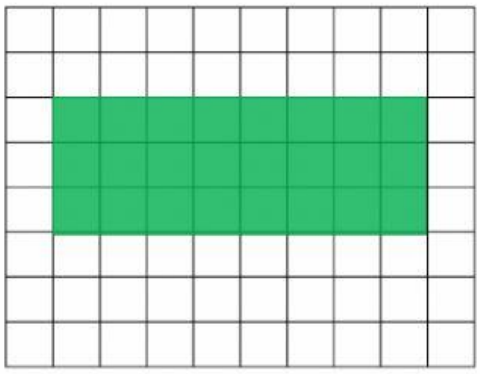

Perímetre: .....

Àrea: .....

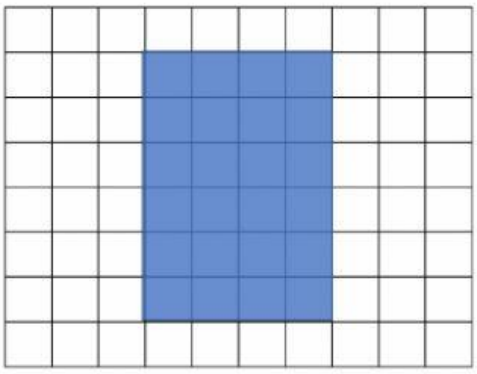

Perímetre: .....

Àrea: .....

10. Quina és l'àrea d'un jardí que mesura 86 m de llarg per 43 m d'ample?

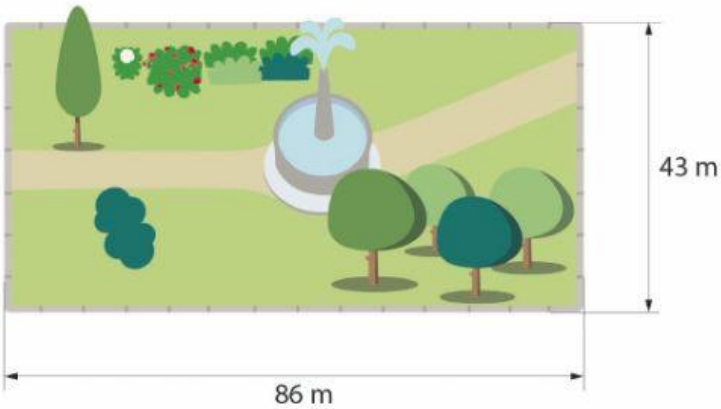

11. Són les festes del barri de la Martina i han organitzat una cursa popular. Observa el plànol del recorregut de la cursa i respon les preguntes.

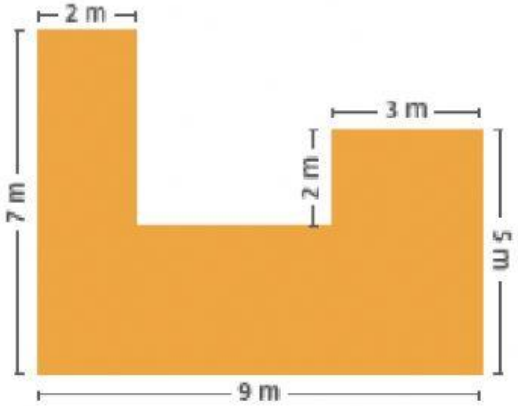

Quants metres de recorregut té la cursa?

La policia ha tancat l'accés dels cotxes a tota la superfície urbana on se celebra la cursa. Aproximadament, quants metres quadrats de superfície ha tancat la policia? Explica la teva estratègia.

12. Calcula. Fixa't en els signes i en les comes.

1, 2	1 9, 5	4, 2 3	5, 1 9
+ 3, 6	– 7, 3	+ 8, 4 5	– 2, 1 5

13. En cada operació només hi ha un resultat correcte. Marca'l.

38,17 + 1,65 =	◌ 54,67	◌ 38,33	◌ 39,82
425,13 + 7,21 =	◌ 432,34	◌ 498,23	◌ 1147,13
652,17 - 2,81 =	◌ 649,36	◌ 654,98	◌ 624,06
0,63 + 0,56 =	◌ 11,9	◌ 1,19	◌ 0,07
47,1 – 23,4 =	◌ 70,5	◌ 2,37	◌ 23,7
27,3 + 4,6 =	◌ 63,3	◌ 31,9	◌ 319

14. El preu per aparcar un cotxe en un pàrquing és de 3,5 € per la primera hora i 1,5 € per cada hora addicional. Quant costarà deixar el cotxe a l'aparcament durant 4 hores?

15. Multiplica o divideix.

2,25 × 100	=	30 × 40	=
450 ÷ 100	=	50 × 200	=
0,93 × 1000	=	2500 ÷ 10	=

16. Una entrada al parc d'atraccions costa 24,95 €. Si hi anem 10 amics, quant haurem de pagar?