# ΓΝΩΡΙΖΩ ΚΑΛΥΤΕΡΑ ΤΑ ΓΕΩΜΕΤΡΙΚΑ ΣΤΕΡΕΑ

1. Με ποιο γεωμετρικό στερεό μοιάζει κάθε τρόφιμο; Σύρω τη σωστή λέξη κάτω από την εικόνα.

κύβος | κύλινδρος | πυραμίδα

σφαίρα | ορθογώνιο παραλληλεπίπεδο

2. Ένωσε τα γεωμετρικά στερεά με το όνομά τους.

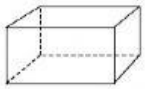

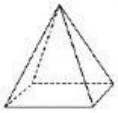

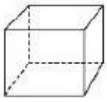

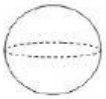

κύλινδρος

ορθογώνιο παραλληλεπίπεδο

πυραμίδα

κύβος

σφαίρα