Examen de matemáticas noviembre

1.- Usando producto cruzados contesta falso o verdadero si las siguientes son fracciones equivalentes.

$\frac{3}{4}$ $\frac{6}{8}$ **R=**

2.- Escribe si es verdadero o falso si las siguientes fracciones son equivalentes.

$\frac{2}{5}$ $\frac{1}{3}$ **R=**

3.- Es la forma correcta de escribir 0.7

R=

4.- Es la forma correcta se escribir 0.238

R=

5.- ¿Cómo se representa la fracción $\frac{5}{10}$ en número decimal?

R=

6- ¿Cómo se representa la fracción $\frac{47}{1000}$ en número decimal?

R=

7.- Es la parte del círculo que está representada.

R=

8.-

R=

9.-

R=

10.-  **R=**

Escribe cuál de los siguientes polígonos es regular o irregular.

11.- **R=**

12.- **R=**

13.- **R=**

14.-  **R=**

15.- 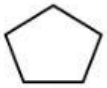 **R=**