LAURA JAMART ÁLVAREZ

LOS POLÍGONOS

¿Cuántos polígonos ves?

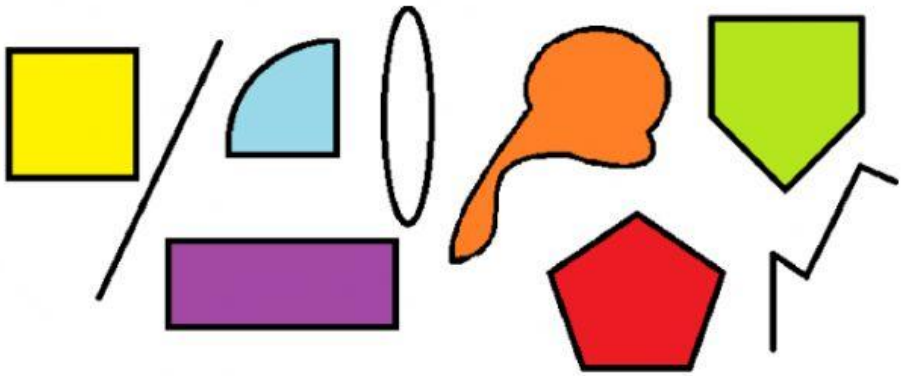

Completa la tabla

				
NÚMERO DE LADOS				
NÚMERO DE ÁNGULOS				
NÚMERO DE VÉRTICES				
¿CÓMO SE LLAMA ESTE POLÍGONO?				

Indica cuál de estas figuras es un polígono. Escribe SI o NO. (Recuerda que para ser un polígono debe tener líneas poligonales cerradas).