Asignatura: Biología
Profesora: María Cecilia Jaramillo

MEIOSIS I y II

Observa las siguientes imágenes y reconoce a que etapa de la meiosis corresponde.

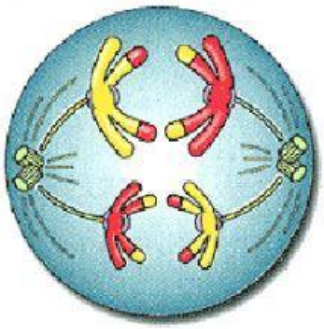



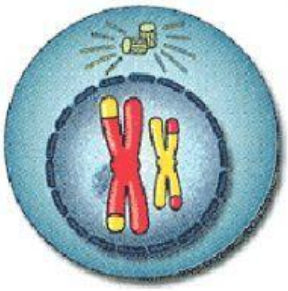

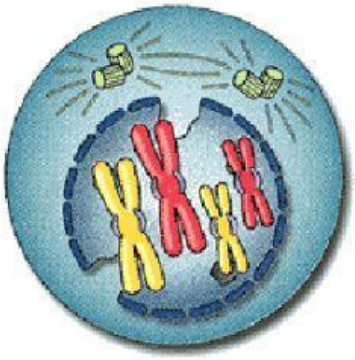

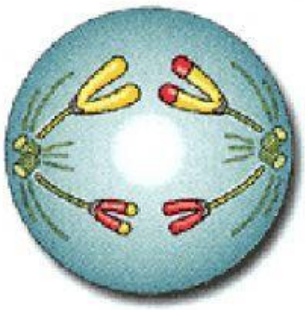

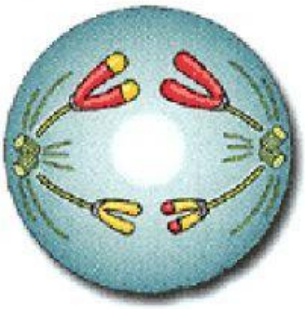

¿Qué eventos permiten variabilidad genética en la meiosis?

¿Cuántas células se generan en la meiosis?

Asignatura: Biología
Profesora: María Cecilia Jaramillo

¿Cuál de las siguientes imágenes muestra el crossing over o entrecruzamiento cromosómico?

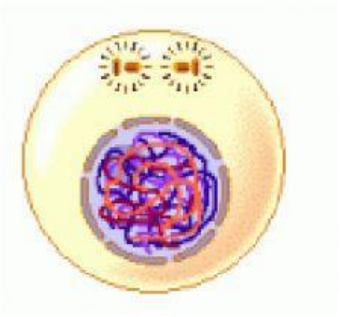

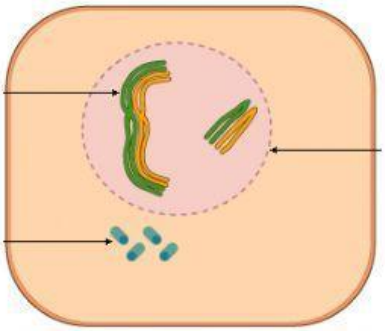

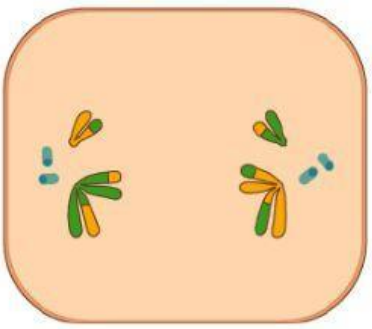

¿Cuál es la finalidad de la meiosis?