1. టేబుల్ పై ఉంచిన పుస్తకం పై పనిచేసే బలాలు

A) తన్యతబలం, గురుత్వబలం B)గురుత్వబలం, ఘర్షణ బలం

C) అభిలంబ బలం, గురుత్వబలం D) అభిలంబ బలం, తన్యతబలం

3.ఒక వస్తువుపై అభిలంబ బలం,తన్యతబలాల ప్రభావం

A) సమంగా ఉంటుంది B) వ్యతిరేకంగా ఉంటుంది

C) సమానంగా ఉంటూ వ్యతిరేకంగా ఉంటుంది D) ప్రభావం ఉండదు .

1. ఘర్షణబలం పనిచేయు దిశ (

A) క్రిందికు B) పైకి

C) బలప్రయోగ దిశ D) వస్తువు చలన దిశకు వ్యతిరేక దిశ

2. బల్లపైనున్న పుస్తకంపై పనిచేయు అభిలంబ బలాన్ని రద్దుచేయు బలం (

A) కండర బలం B) తన్యత బలం

C) అయస్కాంత బలం D) గురుత్వ బలం

3. $F_1 = 8N$, $F_2 = 7N$;ఇవి వ్యతిరేక దిశలో పనిచేస్తే, $F_{net}=$ (

A) 4N B) 6N C) 10N D) 1N

1. రెండు బలాలు $F_1 = 3N$, $F_2 = 7N$ లు వస్తువుపై ఒకేదిశలో పనిచేస్తే $F_{net}=$

A) 4N B) 6N C) 10N D) 21N

2. రెండు సమాన బలాలు వ్యతిరేక దిశలో ఒక వస్తువుపై పనిచేస్తే ఆ వస్తువు

A) వేగంగా కదులును B) కదులదు

C) నెమ్మదిగా కదులును D) పైకి ఎగురును

3. Y- అక్షమునకు కుడివైపు కదిలే వస్తుచలనమునకు తీసుకోవలసిన గుర్తు

A) > B) + C) - D) <

4. బలమునకు వర్తించునవి.

A) పరిమాణం B) ప్రమాణాలు లేవు C) దిశ D) పరిమాణం, దిశ

5. $F_1 = 3N$, $F_2 = 7N$;ఇవి వ్యతిరేక దిశలో పనిచేస్తే $F_{net}=$

A) 4N B) 6N C) 10N D) 21N

1. రెండు సమ బలాలు వ్యతిరేక దిశలో ఒక వస్తువుపై పనిచేసిన ఆ వస్తువు

A) ముందుకు కదులును B) వెనకకు కదులును C) కదులదు D) ఎగురును

2. వస్తువు కదులు సందర్భము

A) 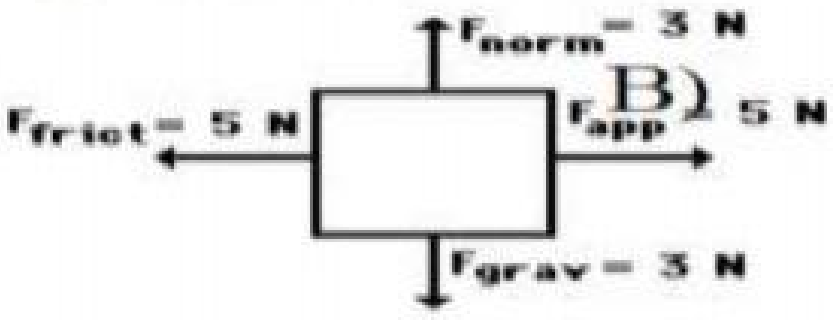

B) 

C) 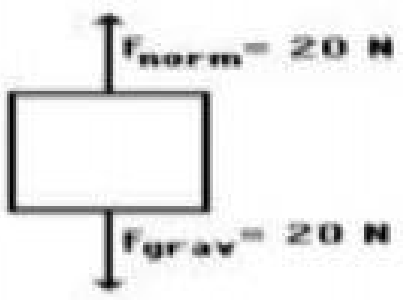
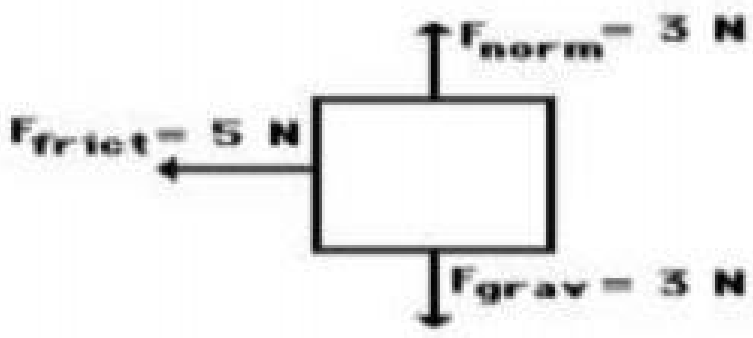
D)