FRACCIONES

1- PINTA LA OPCIÓN CORRECTA. .

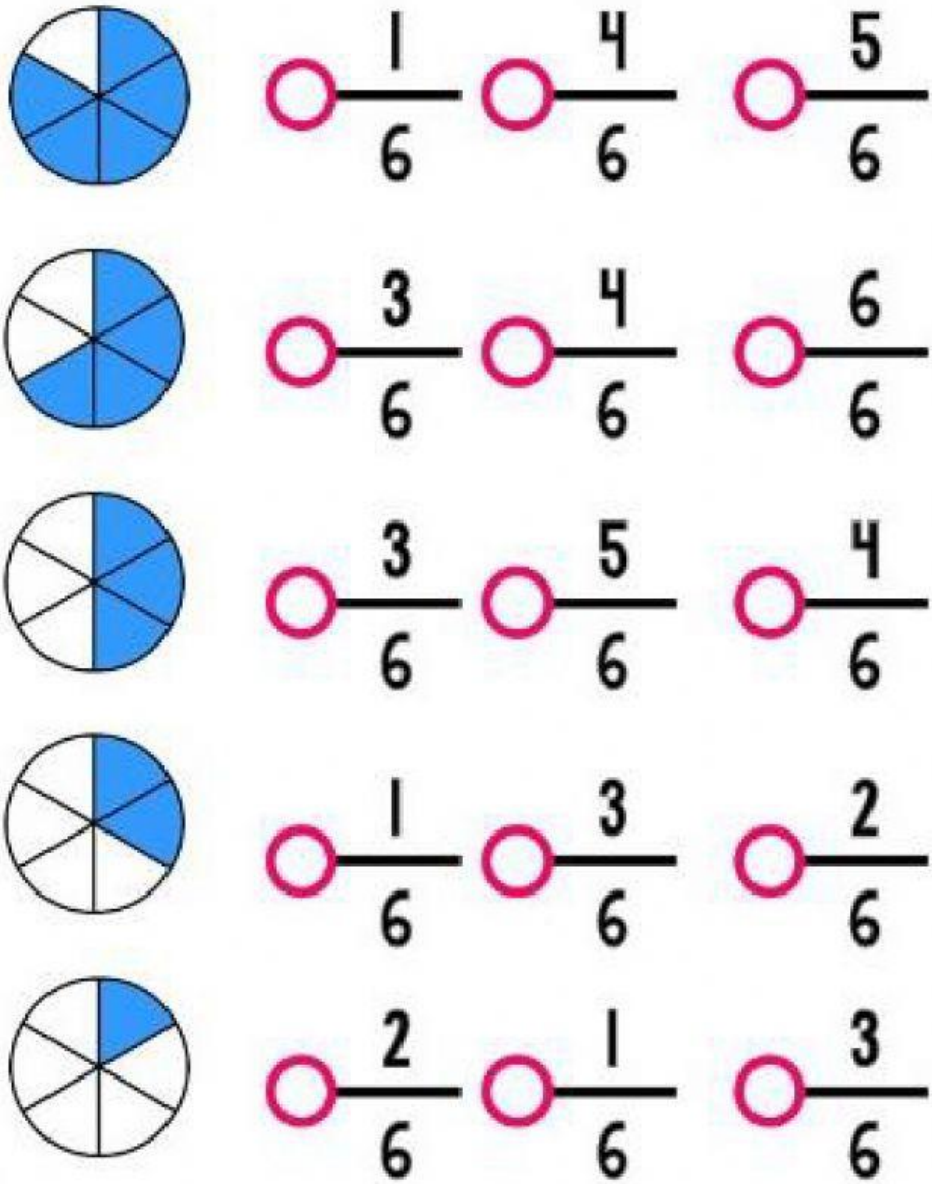

2- UNE CON UNA FLECHA LA FRACCION Y SU REPRESENTACION.

$\frac{4}{6}$

$\frac{4}{7}$

$\frac{5}{7}$

$\frac{4}{8}$

$\frac{5}{8}$

edufichas.com

$\frac{5}{6}$

3- **REALIZA LA OPERACIÓN Y CON UNA FLECHA UNE LA REPRESENTACIÓN CORRESPONDIENTE.**

$$\frac{5}{9} + \frac{3}{9} =$$

$$\frac{2}{8} + \frac{1}{8} =$$



$$\frac{6}{24} + \frac{8}{24} =$$

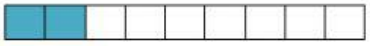

eduñitas.com

$$\frac{3}{10} + \frac{5}{10} =$$



$$\frac{1}{9} + \frac{1}{9} =$$

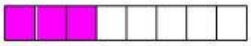

$$\frac{4}{9} + \frac{1}{9} =$$

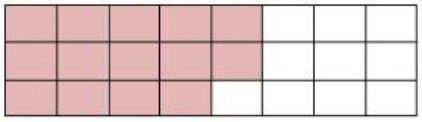

4- UNE CON UNA LINEA CADA RESTA CON EL RESULTADO.

$\frac{2}{8} - \frac{1}{8}$	$\frac{2}{4}$
$\frac{6}{9} - \frac{3}{9}$	$\frac{1}{6}$
$\frac{7}{10} - \frac{5}{10}$	$\frac{2}{10}$
$\frac{4}{7} - \frac{3}{7}$	$\frac{2}{11}$
$\frac{6}{6} - \frac{5}{6}$	$\frac{3}{9}$
$\frac{3}{4} - \frac{1}{4}$	$\frac{1}{7}$
$\frac{8}{11} - \frac{6}{11}$	$\frac{1}{8}$

CIENCIAS NATURALES

LEO Y COMPLETO LA SOPA DE LETRAS.

A	L	I	M	E	N	T	O	S	F	G	Y	T	A	I	P
D	F	G	H	F	R	U	T	A	S	H	J	K	L		U
D	I	G	E	S	T	I	V	O	G	J	L	Ñ	M	I	L
G	F	E	T	A	R	T	E	R	I	A	S	R	S		M
E	X	P	U	L	S	A	D	O	S	U	T	S	R		O
C	I	R	C	U	L	A	T	O	R	I	O	F	S	T	N
F	E	R	T		M	A	T	E	R	I	A	L	E	S	I	E
Q	I	W	C	O	R	A	Z	O	N	I	S	G	R	I	S

1. Son el combustible que nos da energía. ___
2. La función de transformar los alimentos en nutrimentos, es realizada por el aparato...
3. Los deshechos viajan por el intestino grueso hasta llegar al ano, allí son excretados o ...
4. Las vías por donde viaja la sangre son las venas y las.....
5. Es el órgano que se encarga de bombear la sangre a todo el cuerpo.
6. El corazón, las venas y las arterias forman parte del aparato.....
7. En ellos se lleva a cabo el intercambio de gases: oxígeno y dióxido de carbono.
8. Debemos consumir en mayor cantidad verduras y...