FIGURAS GEOMÉTRICAS

1. Escreva o nome das figuras geométricas abaixo:



2. Ligue as figuras geométricas em seus devidos lugares, de acordo com a descrição dada a seguir:

FIGURA COM 4 VÉRTICES E 4 LADOS, SENDO TODOS EXATAMENTE IGUAIS.



FIGURA COM 3 VÉRTICES E 3 LADOS, QUE PODEM OU NÃO SER IGUAIS.

FIGURA BEM DIFERENTE DAS DEMAIS, POIS NÃO TEM LADOS E NÃO TEM VÉRTICES.



FIGURA COM 4 VÉRTICES E 4 LADOS, SENDO APENAS 2 PARES DE LADOS IGUAIS.