المملكة العربية السعودية
وزارة التعليم
شركة أجيالنا التعليمية
إدارة التخطيط والتطوير والإشراف التربوي

ورقة عمل

مدارس الفرسان الأهلية
Al Forsan National Schools

الفصل الدراسي	الاول	المادة	رياضيات 1	الدرس	زوايا المثلث

اسم الطالب		الفصل		الدرس	

اختر الإجابة الصحيحة

1. $m\angle A + m\angle B + m\angle C = \cdots$ ...

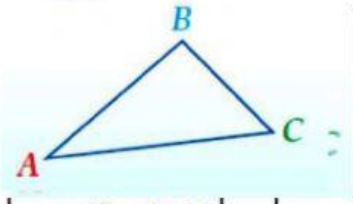

A	B	C	D
90	180	360	لايمكن التحديد

2. في أي مثلث توجد.....على الأقل

A	B	C	D
زاويتين حادتين	زاويتين قائمتين	زاويتين منفرجتين	زاوية حادة

3. $m\angle 4 = \cdots$

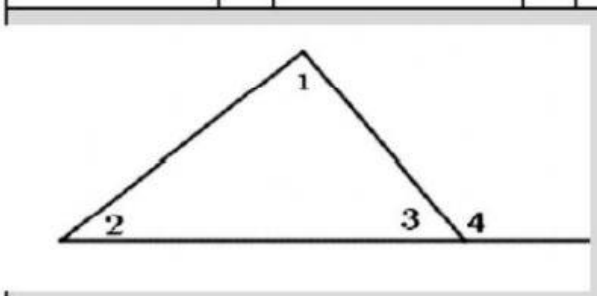

A	B	C	D
$m\angle 1 + m\angle 3$	$m\angle 1 + m\angle 2$	$m\angle 2 + m\angle 3$	$m\angle 3$

4. $m\angle 1 = \cdots$

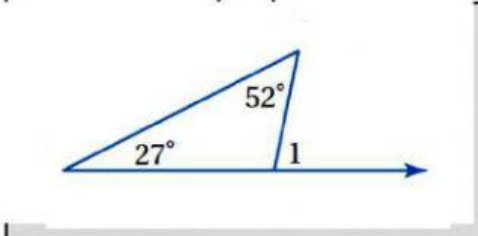

A	B	C	D
79	128	153	101

5. $m\angle 3 = \cdots$

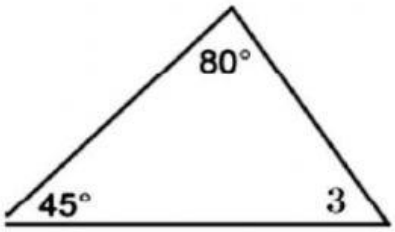

A	B	C	D
125	100	55	135

معلم المادة	ناصف احمد	المشرف التربوي	ا/ محمد جاب الله