4

Suma el valor de totes les peces de cada jugador i anota les puntuacions.

a

Blanques: 8 Negres: 4

b

Blanques: Negres:

c

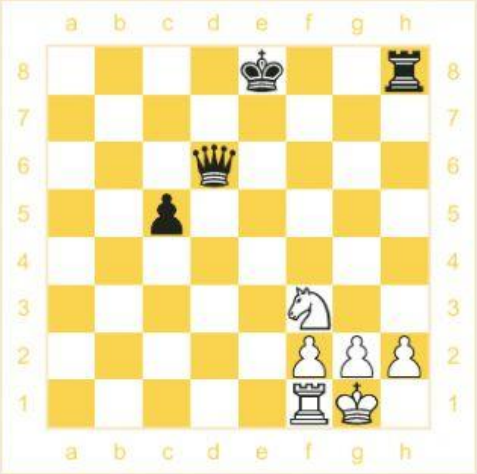

Blanques: Negres:

d

Blanques: Negres:

e

Blanques: Negres:

f

Blanques: Negres:

5

Encercla el jugador que té més punts i anota per quants punts de diferència guanya. Compta solament els punts de les peces diferents.

a

Blanques Negres 4

b

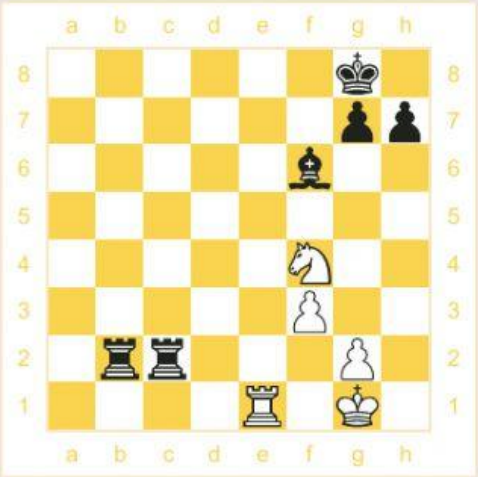

Blanques Negres

c



Blanques Negres

d

Blanques Negres

e

Blanques Negres

f

Blanques Negres

Equivalències

Cada peça, segons el seu valor, equival a una altra peça o a algunes peces juntes.

Durant la partida has d'intentar tenir més punts que l'adversari. La teva puntuació material és la suma del que valen les peces que et queden al tauler.

Exemples

1.

2.

3.

4.

5.

6.

6

Escriu el nom de la peça que falta per tal que siguin certes les següents igualtats.

a

Cavall

b



c

d

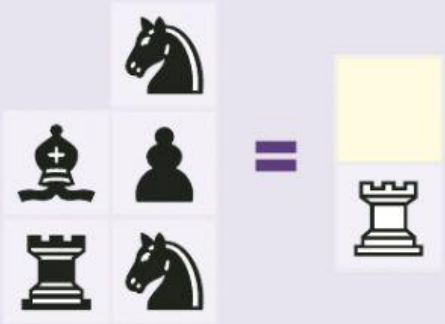

e

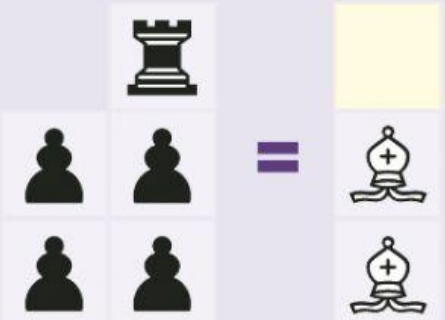

f

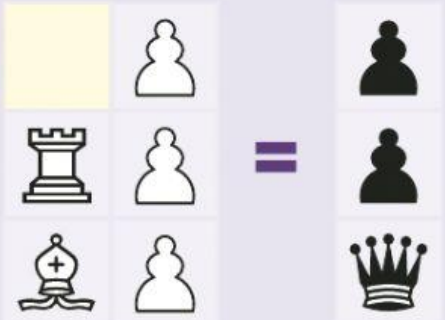

7

Escriu el nom i el color de la peça que falta perquè s'equilibrin els dos costats de la balança.

a

Torre blanca

b

c

d

e

f

8

Escriu el nom de la peça que sobra per tal que la suma de les altres correspongui al valor de l'etiqueta.

a

Peó

b



c

d

e

f