Тиждень 11. *Вчимося додавати і віднімати числа*

_____ (ім'я)

__ *листопада*

Знайди значення виразів за схемами.

6 + 2 = 6 + □ + □ = □ + □ = □

□ і □

5 + 2 = 5 + □ + □ = □ + □ = □

□ і □

8 + 2 = 8 + □ + □ = □ + □ = □

□ і □

8 − 2 = 8 − □ − □ = □ − □ = □

□ і □

9 − 2 = 9 − □ − □ = □ − □ = □

□ і □

5 − 2 = 5 − □ − □ = □ − □ = □

□ і □

7 − 2 = 7 − □ − □ = □ □ = □

□ і □

6 − 2 = 6 − □ − □ = □ − □ = □

□ і □

Склади рівності за кожним малюнком.

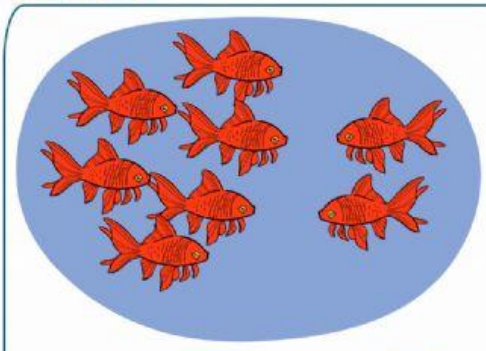

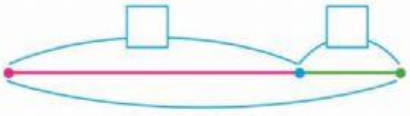

?

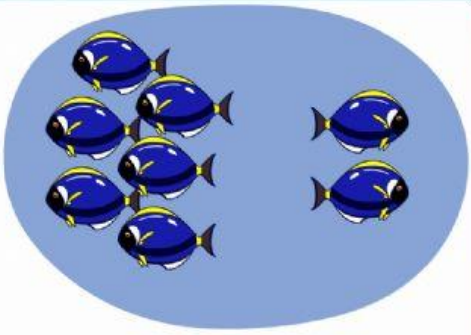

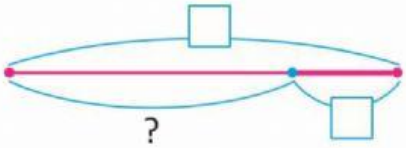

?