**EVALUACION DE ÁREA Y PERIMETRO**

**ESTUDIANTE:**_____

**GRADO** _____

Arrastra las figuras geométricas donde corresponde

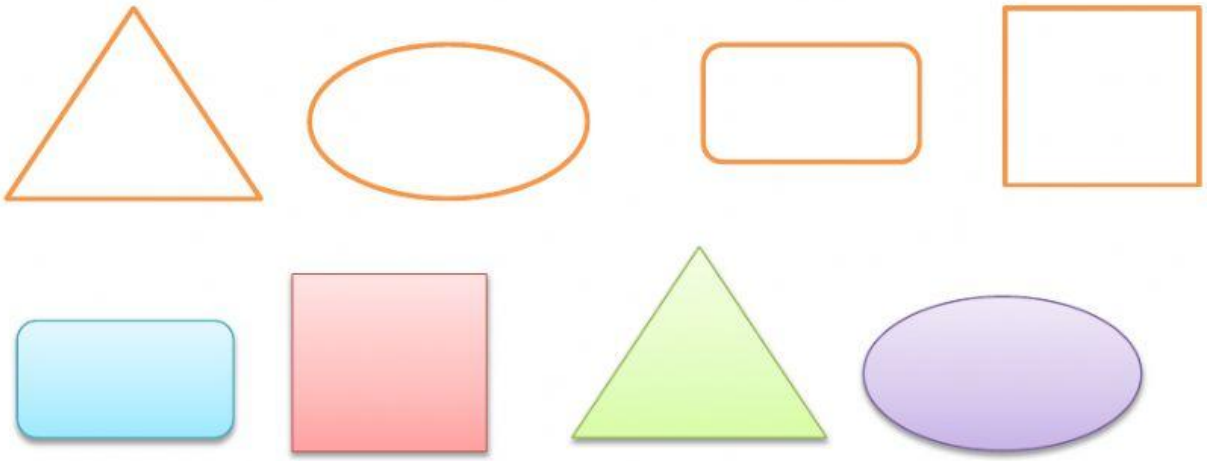

**Responde las preguntas**

1.- ¿Cuántos lados tiene el cuadrado?

R.-.....

2.- ¿Por qué se llama triángulo?

R.-.....

**Encuentra el perímetro y área del cuadrado que mide 50 metros (m), lado (L)**

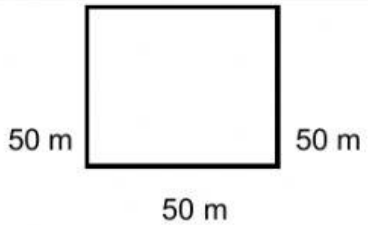


**P = L + L + L + L**

P =

P =

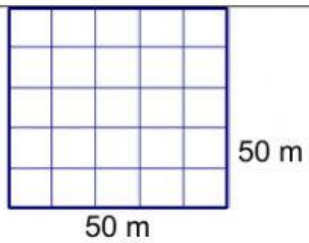


**A = L x L**

A =

A =

Calcula el perímetro y área de un cuadrado que mide 10 centímetros (cm) lado (L)

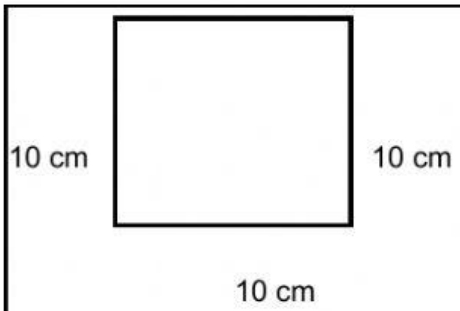


P = L + L + L + L

P =

P =

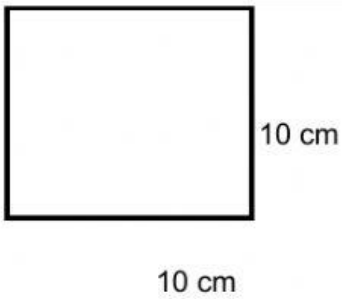


A = L x L

A =

A =

Averiguamos el perímetro y área del triangulo

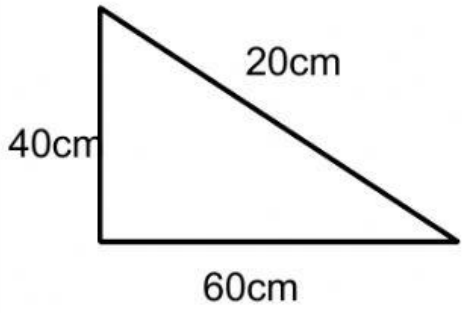


**P = L + L + L**

P =

P =

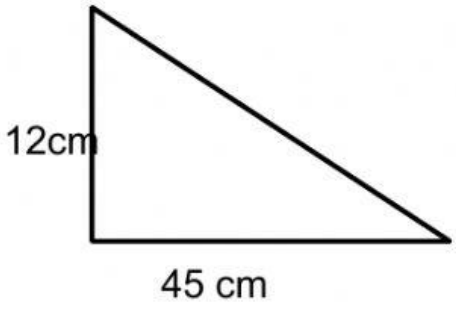


**A =** $\frac{b \times h}{2}$

A =

A =

Responder las siguientes preguntas

1. **¿Qué es perímetro?**

   **R:** ……

2. **¿Qué es área?**

   **R:** ……

3. ***¿Qué se suman para sacar el perímetro de un cuadrado?***

   ***R:*** ……

4. **¿Qué se multiplica para sacar el área de un cuadrado?**

   **R:** ……