I. E. P. "ALEXANDER FLEMING"

"Educación en Valores con alto nivel académico"

PRACTICA DE MATEMÁTICA II

1 Calcula el área de cada figura si se sabe que = .

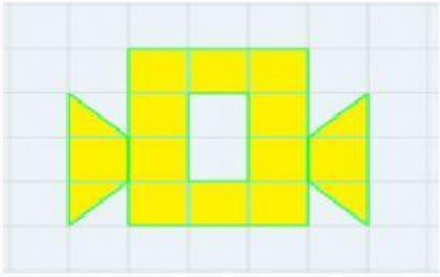

A=

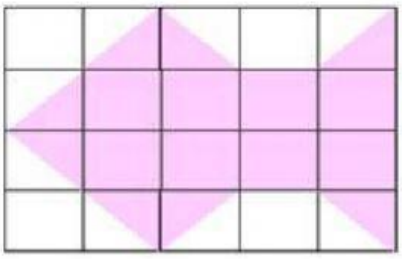

A=

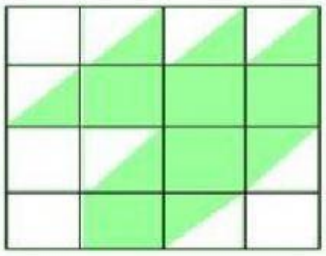

A=

Observa estas figuras. ¿Cuál tiene mayor superficie?.....Ordénalas de mayor a menor.



..... > ..... > ..... > ..... > .....

1.- Calcula en área de cada figura usando como unidad el cuadrado de la cuadrícula.

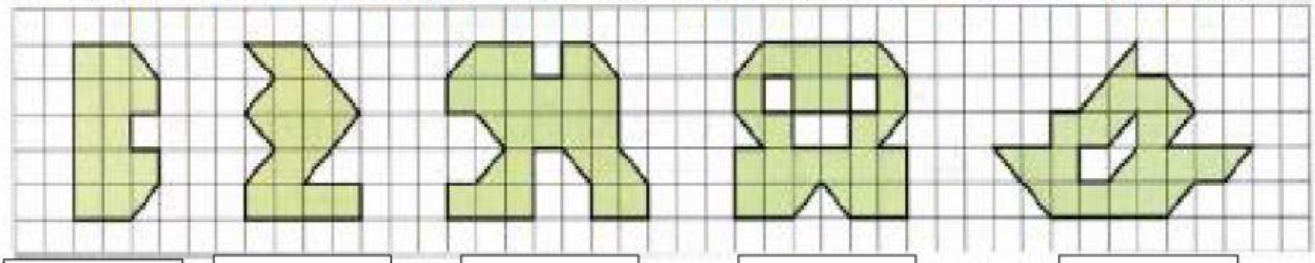

A= A= A= A= A=
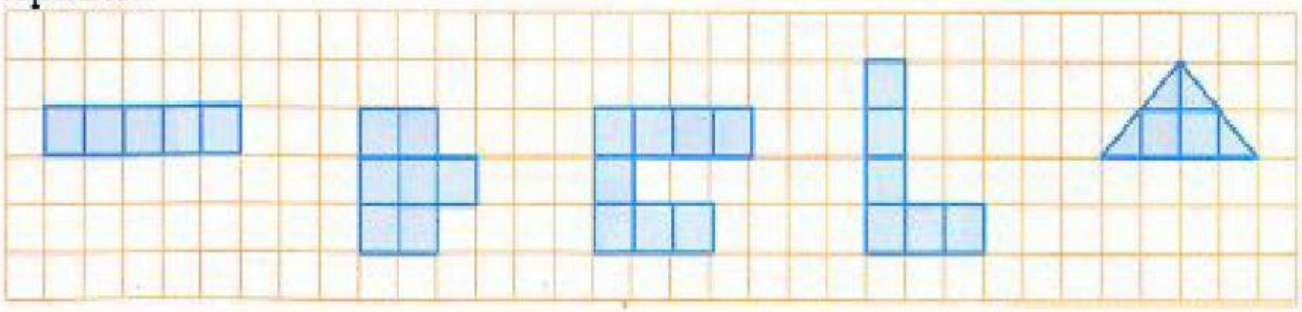
2.- Completa en la cuadrícula estas figuras para que sean polígonos con 8 unidades de superficie.