Збільшення та зменшення числа на 4

1. Виконай арифметичні дії.

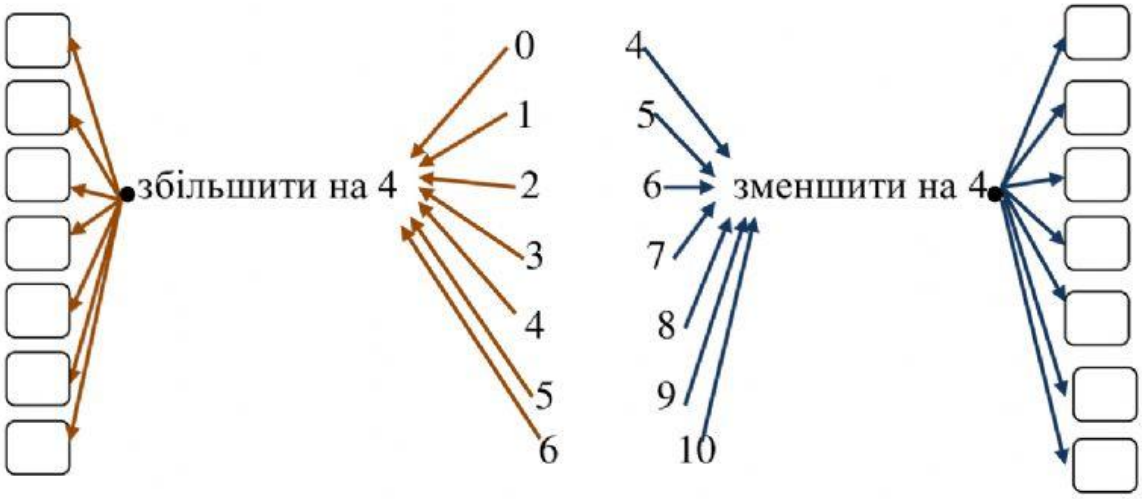

2. Устав потрібні числа.

6+ =10	3+ =7	7- =3
6- =2	10- =6	1+ =5

3. Відзнач олівці з результатом 4.



1. Розв'яжи задачу.

   У Соломійки було 6 мандарин, а в Кирила - на 4 мандарини менше. Скільки мандарин у Кирила?
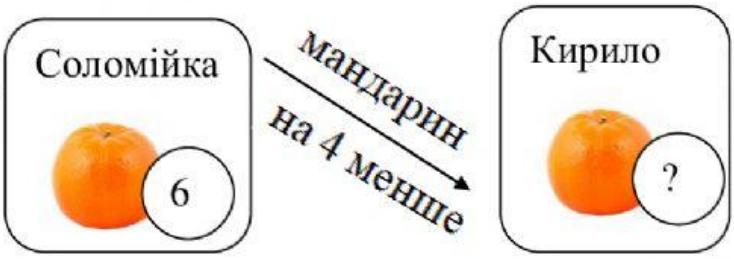
Відповідь: = (.) мандарин.