Ficheiro de Matemática

Números e Operações

2°ano

Ficheiro de Matemática

Números e Operações

N°1

1. Calcula

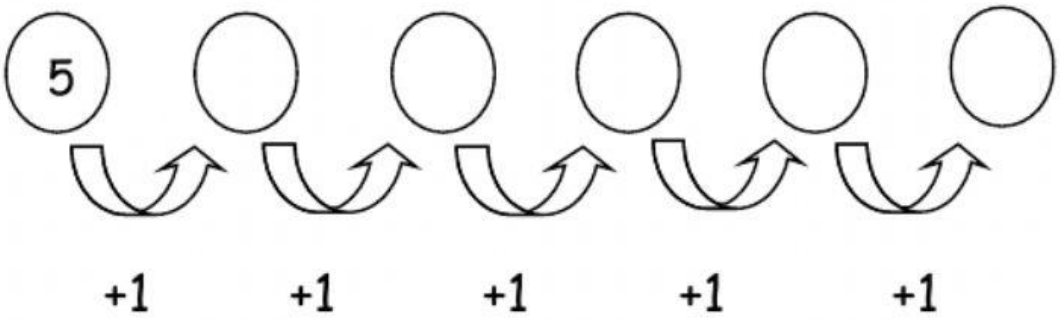

2. Ordena os números do menor para o maior (crescente)

5 8 3 9 12 6 15

□ < □ < □ < □ < □ < □ < □

Ficheiro de Matemática

Números e Operações

Nº2

1. Calcula

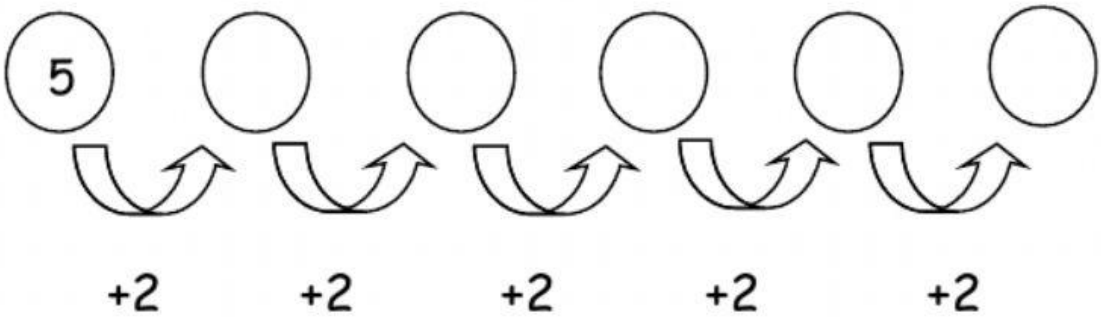

2. Pinta o número de bolas indicado

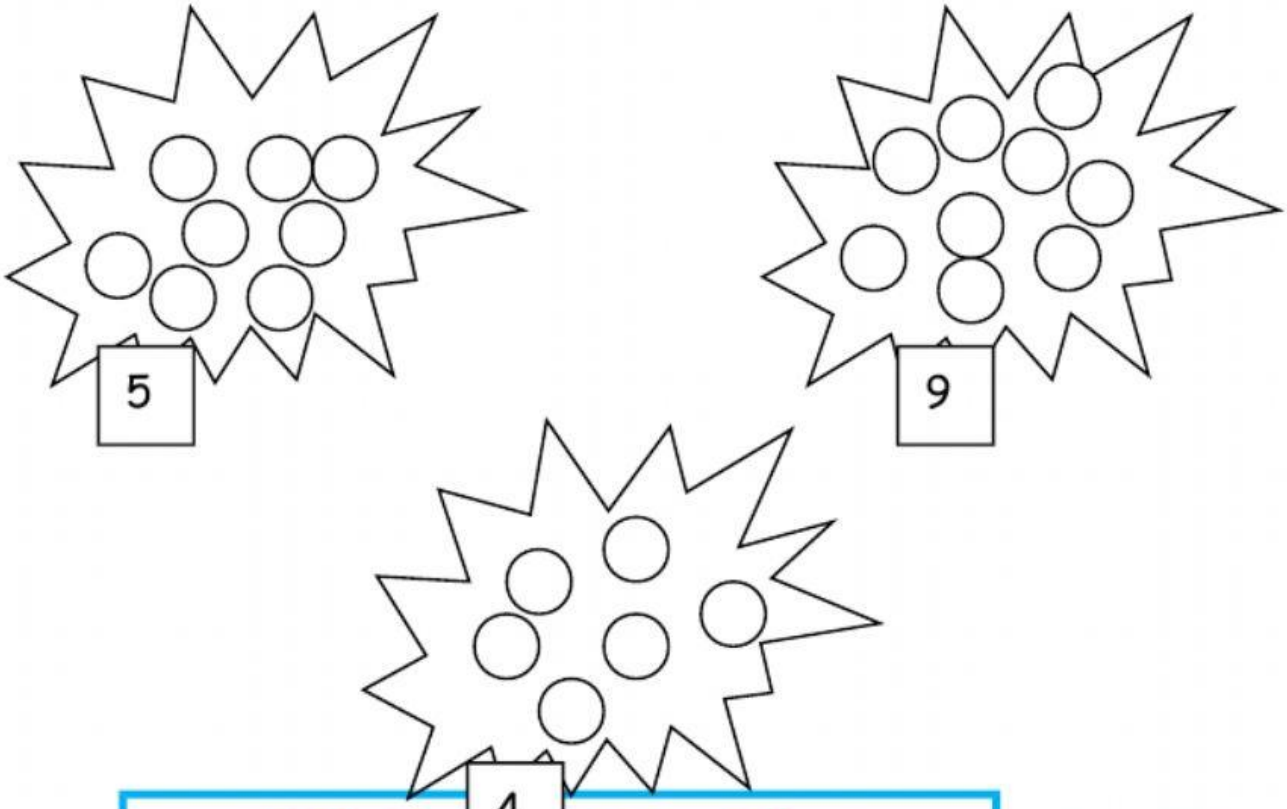

Ficheiro de Matemática

Números e Operações

Nº3

1. Completa com os sinais <, > ou =

5+1 _____ 6 7-1 _____ 6 7 _____ 3+3

6 _____ 5 4+1 _____6 4+2_____ 3+3

2. Calcula

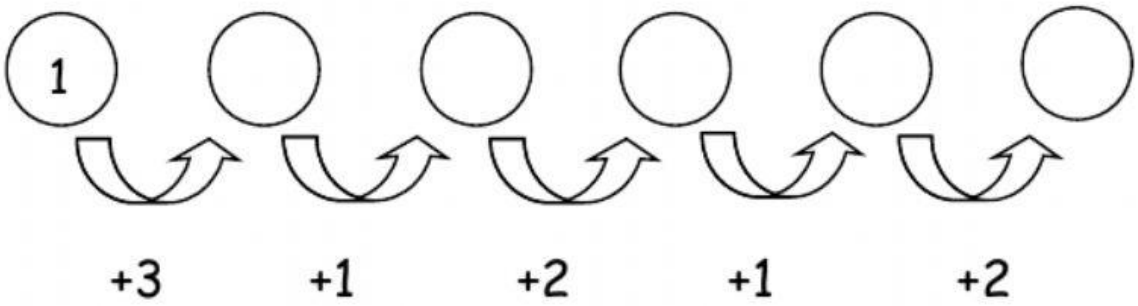

3. Calcula mentalmente

2 + 2 = _____ 3 + 3 = ____ 8 + 2 = ____ 9 + 1 = _____

4 - 2 = _____ 5 - 3 = ____ 6 - 3 = ____ 10 - 4 = _____

Ficheiro de Matemática

Números e Operações

Nº4

1. Completa a tabela

Antes		Depois
	14	
	17	
	13	
	2	
	11	
	12	
	18	

2. Completa

4+____=7
7+____=10
6+____=12
10+____=15

____+4=10
10+___=12
5+1+___=10
____+5+5=15

Ficheiro de Matemática

Números e Operações

N°5

1. Completa

10-4=	17-11=
9-9=	8-2=
14-14=	16-9=
12-1=	8-8=

2. Numera correctamente os dias da semana de 1 a 7

Domingo	1	Sexta-feira	
Sábado		Segunda-feira	
Terça-feira		Quarta-feira	
Quinta-feira			

Ficheiro de Matemática

Números e Operações

N°6

1. Descobre o número que falta.

7 + ____= 10 10 + ____= 17 20 + 9 = _____

6 + 4 = ____ 12 + ____ = 14 30 + 9 = _____

2. Completa a tabela

+	0	1	2	3	4
1					
2					
3					
4					
5					

Ficheiro de Matemática

Números e Operações

N°7

1. Pinta na barra

- 5 quadrados amarelos
- 4 quadrados vermelhos
- 6 quadrados verdes
- 3 quadrados azuis

a) Quantos quadradinhos faltam pintar?

2. Ordena os números do maior para o menor (decrescente)

3 0 1 4 2 5

☐ > ☐ > ☐ > ☐ > ☐ > ☐

Ficheiro de Matemática

Números e Operações

N°8

1. Assinala como no exemplo.

	16	2	12	10	20	19	15
7 - 5		X					
10 + 5							
17 - 5							
10 + 10							
15 - 5							
19 - 3							
15 + 4							

2. Liga o número à quantidade