CUARTO GRADO

Unidades de longitud

1 **Observá la regla y escribí cuántos centímetros mide cada objeto**

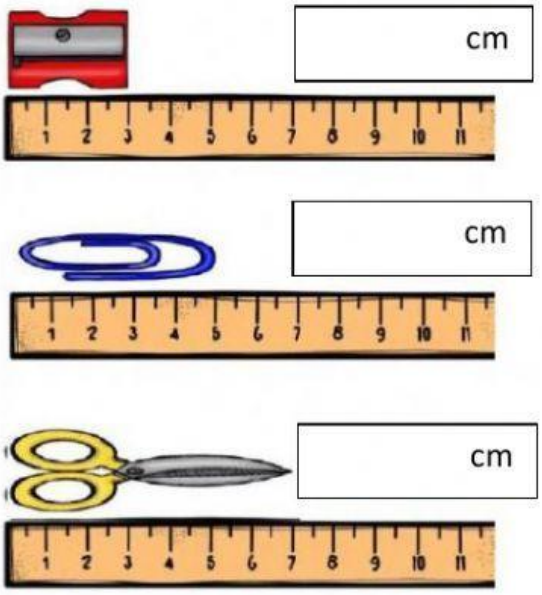

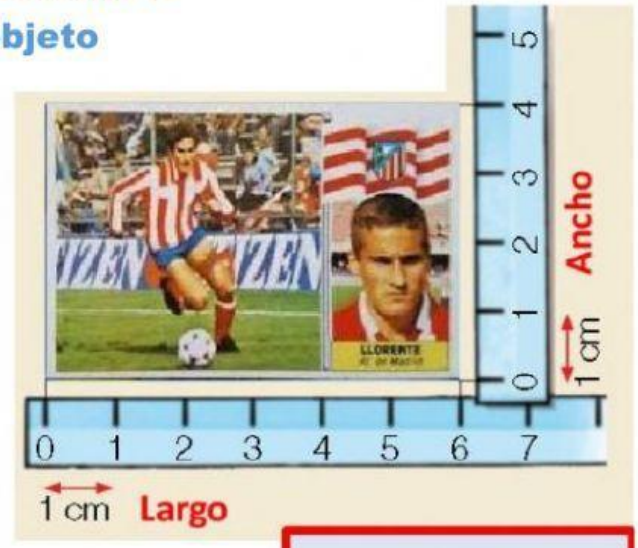

Largo: ____ cm

Ancho: ____ cm

2 **Completá la tabla con las unidades de medida.**

NOMBRE	ABREVIATURA
Kilómetro	
	m
centímetro	
milímetro	

3 **Ordená estas medidas de mayor a menor arrastrándolas.**

1 cm 1m 1 km 1 mm

☐ ☐ ☐ ☐

4 Completá la frase eligiendo la opción correcta.

- La unidad principal de longitud es el [ ]
- Su símbolo es [ ]

5 Elegí la unidad de medida conveniente para medir el largo de estos objetos.

tren

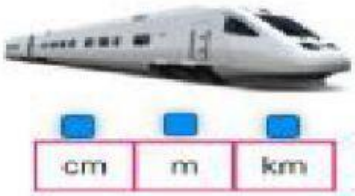

lápiz

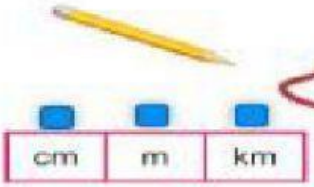

distancia entre ciudades

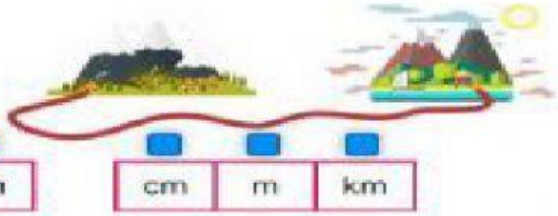

6 Elegí cual es la medida correcta para la altura de estos objetos.

mochila

edificio

armario

paraguas

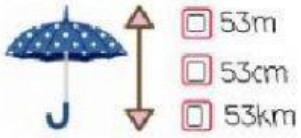

árbol

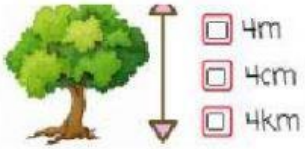

7 Marcá los objetos que miden menos que un metro.

8 Escribí a cuántos centímetros equivalen estos metros.

1m= ____ cm **7m=** ____ cm

8m= ____ cm **3m=** ____ cm

Centímetro ➡ cm
Metro ➡ m
1 metro = 100 centímetros
1m = 100 cm

9 Escribí estas equivalencias.

Recordá poner el punto en los números que haga falta.

✓ 46 cm = _____ mm

✓ 8 m = _____ cm = _____ mm

✓ 5 km = _____ m = _____ cm = _____ mm